Аутори: О. Тодоровић и С. Огњановић

РАДНИ ЛИСТИЋ	
ПРВИ РАЗРЕД	ГОРЕ, ДОЛЕ
Име и презиме	

1. Ко је испод кишобрана? Обој кишобран плавом бојом . Изнад кишобрана нацртај облаке. Девојчицу обој како ти желиш. Нацртај и мацу испод кишобрана.

2. Оно што је горе обој у плаво, а оно што је доле обој како ти желиш.

Аутори: О. Тодоровић и С. Огњановић

РАДНИ ЛИСТИЋ	
ПРВИ РАЗРЕД	ЛЕВО, ДЕСНО
Име и презиме	

1. Меду са десне стране Хело Кити обој црвеном бојом, а оног са леве стране плавом. Хело Кити обој како ти желиш.

2. Са зекине леве стране нацртај шаргарепу, а са десне лопту. Зеку обој како ти желиш.

3. Сваком лептиру лево крило обој црвеном бојом, а десно жутом.



Аутори: О. Тодоровић и С. Огњановић

РАДНИ ЛИСТИЋ	
ПРВИ РАЗРЕД	Напред, назад, испред , иза, између
Име и презиме	

1. Обој ауто како ти желиш. Затим испред аута нацртај камион, а иза аутобус.

2. Између квадрата и троугла нацртај круг.

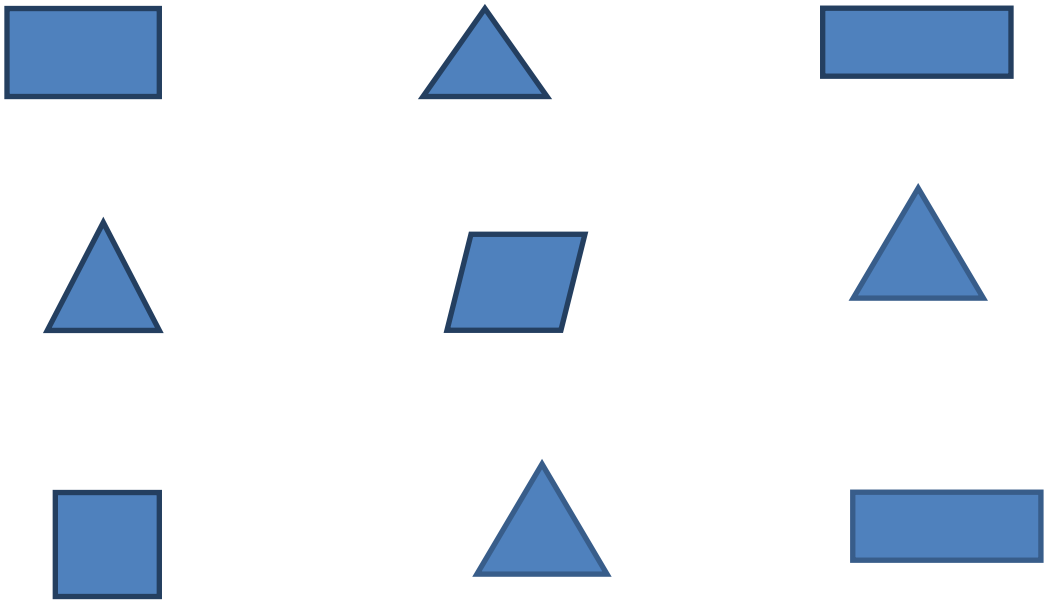

Аутори: О. Тодоровић и С. Огњановић

РАДНИ ЛИСТИЋ	
ПРВИ РАЗРЕД	ВЕЋЕ, МАЊЕ
Име и презиме	

1. Обој већи предмет.

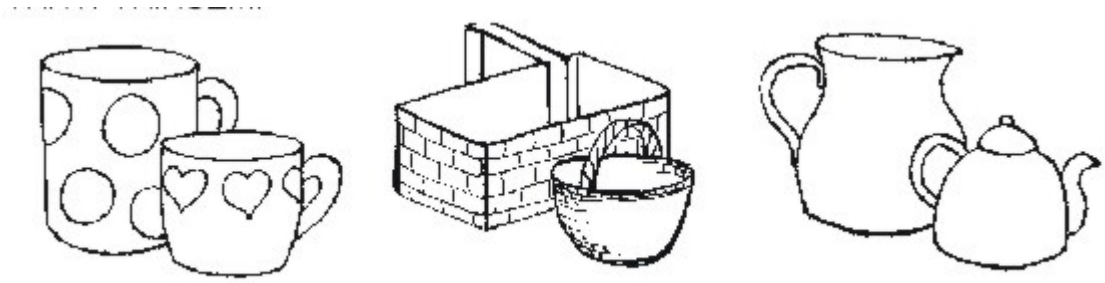

2. Обој мању животињу и предмет.

3. Нацртај мањи и већи предмет од оног који је у средини.

МАЊИ	ПРЕДМЕТ	ВЕЋИ

Аутори: О. Тодоровић и С. Огњановић

РАДНИ ЛИСТИЋ	
ПРВИ РАЗРЕД	ШИРЕ, УЖЕ
Име и презиме	

1. Испод ширег предмета нацртај плаву звездицу, а испод ужег црвену.

2. Која прича би могла да буде у дебљој, а која у тањој књизи? Нацртај.



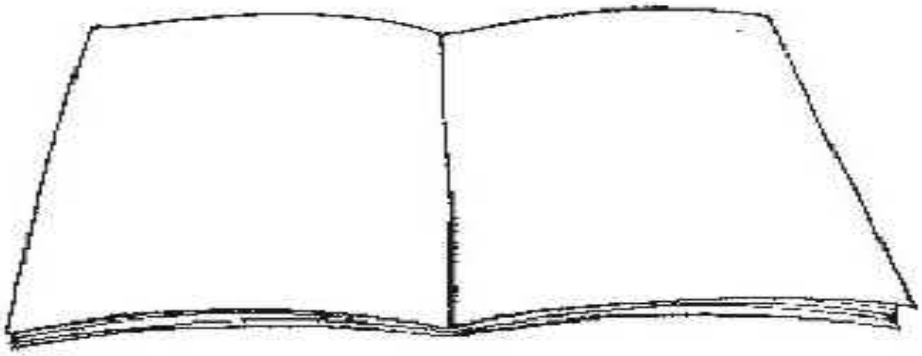

Аутори: О. Тодоровић и С. Огњановић

РАДНИ ЛИСТИЋ	
ПРВИ РАЗРЕД	ВИШЕ, НИЖЕ
Име и презиме	

1. Мајицу вишег дечака обој у црвено, а нижег у плаво. Панталоне нижег дечака обој у зелено, а вишег у жуто. Које боје су дуже панталоне?



2. Нацртај виши и нижи предмет.

НИЖИ	ВИШИ
	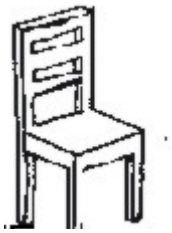

Аутори: О. Тодоровић и С. Огњановић

РАДНИ ЛИСТИЋ	
ПРВИ РАЗРЕД	ПРЕДМЕТИ ОБЛИКА КРУГА
Име и презиме	

1. Обој све кругове као што је показано.

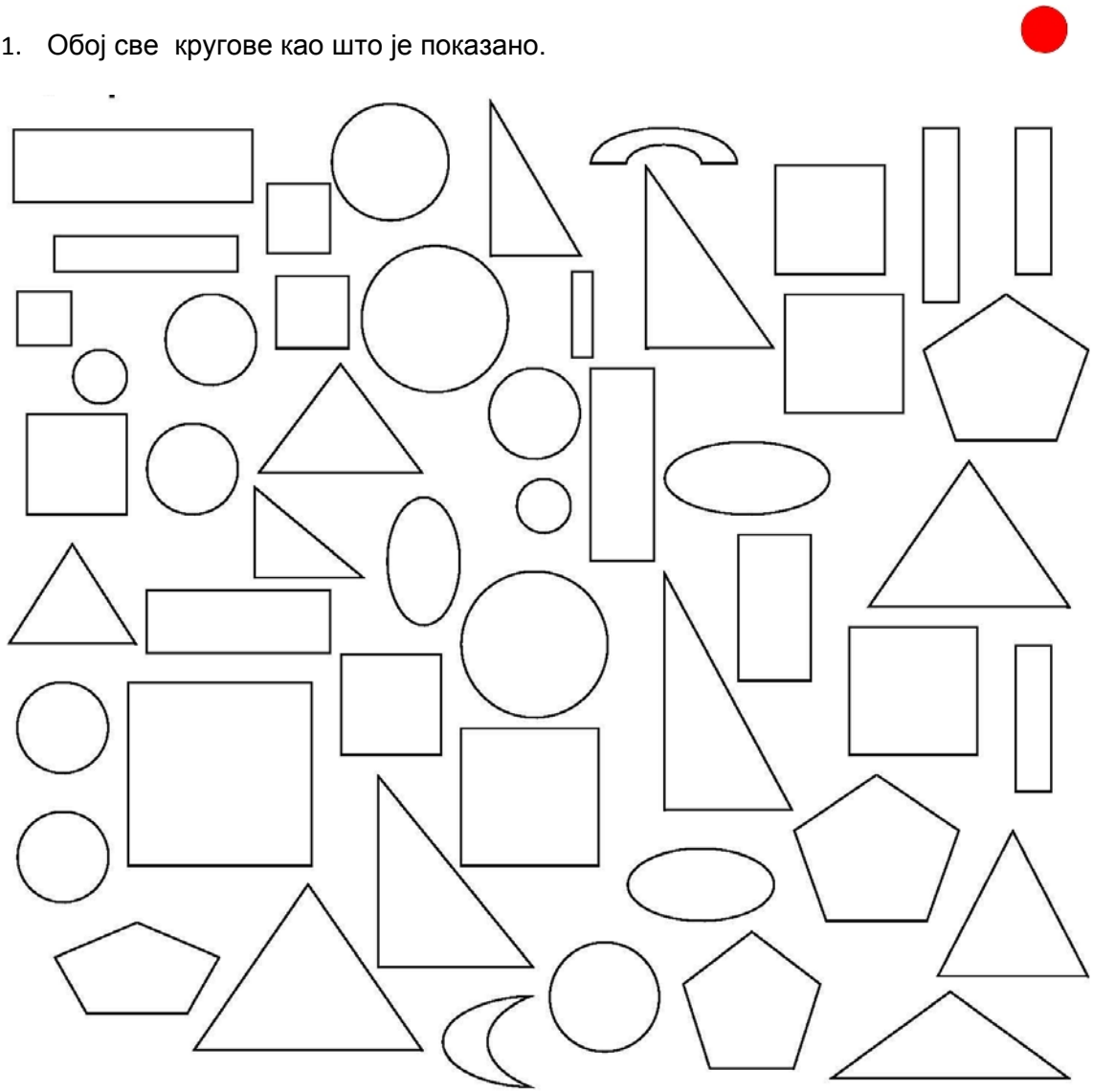

2. Нацртај неколико предмета облика круга.

Аутори: О. Тодоровић и С. Огњановић

РАДНИ ЛИСТИЋ	
ПРВИ РАЗРЕД	ПРЕДМЕТИ ОБЛИКА КВАДРАТА
Име и презиме	

1. Обој све квадрате као што је показано.



2. Нацртај неколико предмета облика квадрата.

Аутори: О. Тодоровић и С. Огњановић

РАДНИ ЛИСТИЋ	
ПРВИ РАЗРЕД	ПРЕДМЕТИ ОБЛИКА ПРАВОУГАОНИКА
Име и презиме	

1. Обој све правоугаонике као што је показано.

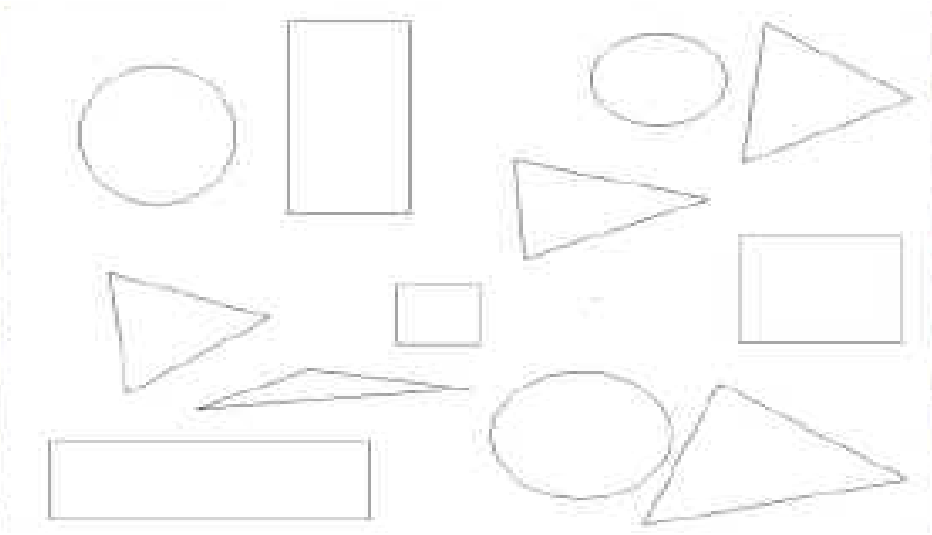

2. Нацртај неколико предмета облика правоугаоника.

Аутори: О. Тодоровић и С. Огњановић

РАДНИ ЛИСТИЋ	
ПРВИ РАЗРЕД	ПРЕДМЕТИ ОБЛИКА ТРОУГЛА
Име и презиме	

1. Обој као што је показано.



2. Нацртај неколико предмета облика троугла.

Аутори: О. Тодоровић и С. Огњановић

РАДНИ ЛИСТИЋ	
ПРВИ РАЗРЕД	ПРЕДМЕТИ ОБЛИКА КОЦКЕ, КВАДРА И ПИРАМИДЕ
Име и презиме	

1. Обој као што је показано.

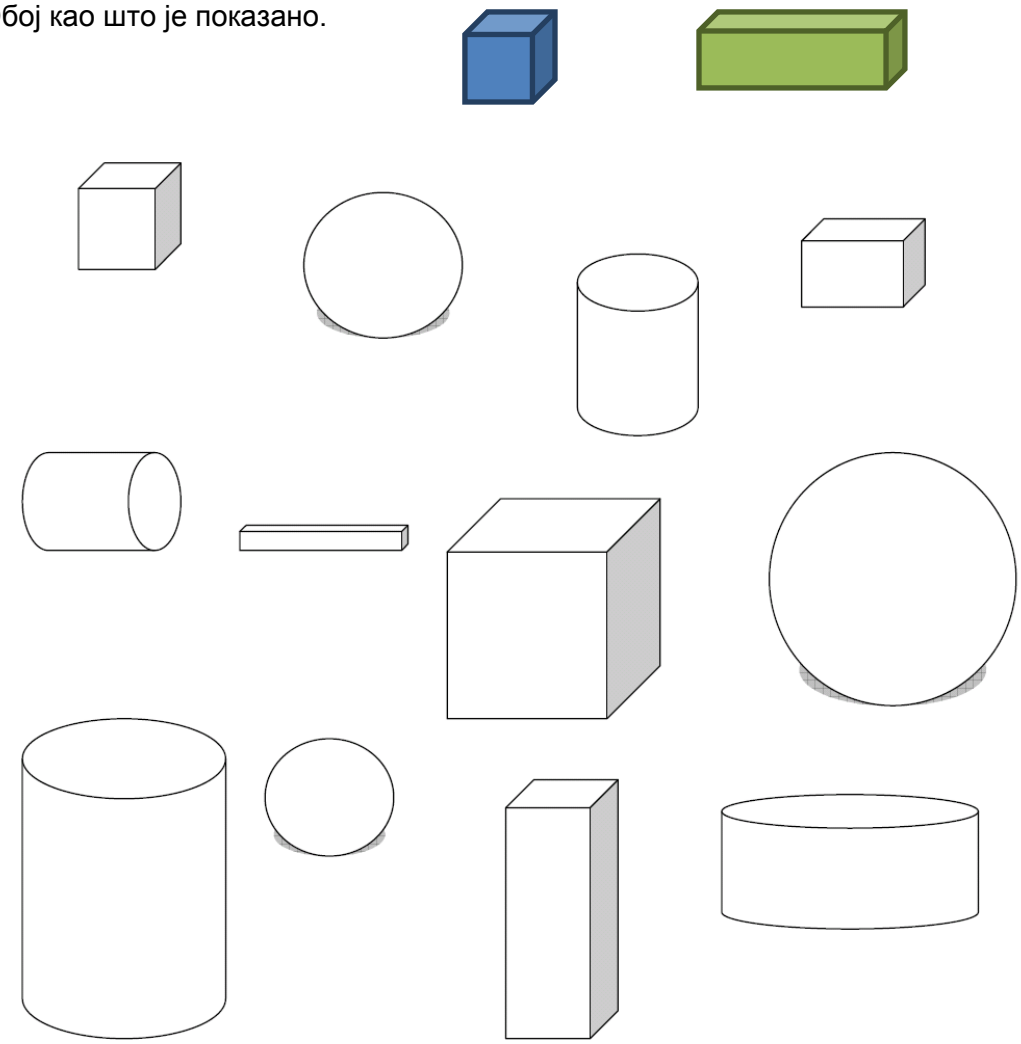

2. Нацртај предмет облика пирамиде.

Аутори: О. Тодоровић и С. Огњановић

РАДНИ ЛИСТИЋ	
ПРВИ РАЗРЕД	ПРЕДМЕТИ ОБЛИКА ЛОПТЕ, ВАЉКА И КУПЕ
Име и презиме	

1. Обој као што је показано.

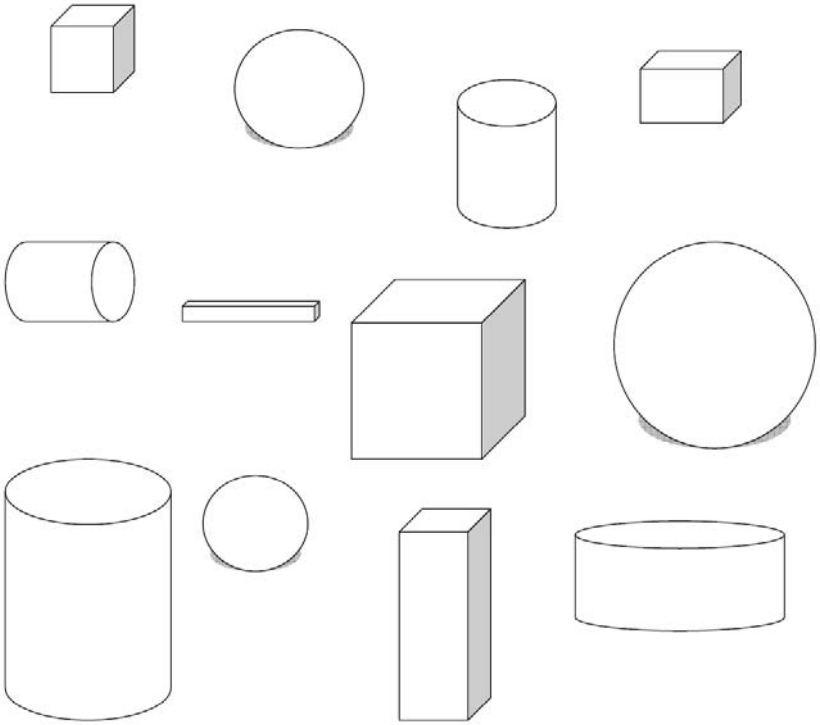

2. Нацртај лопту са којом највише волиш да се играш.

3. Нацртај предмет облика купе.

Аутори: О. Тодоровић и С. Огњановић

РАДНИ ЛИСТИЋ	
ПРВИ РАЗРЕД	ЛИНИЈА (крива, права и и изломљена)
Име и презиме	

1. Криве линије обој црвеном бојом, а изломљене плавом.

Које линије су остале необојене?

Аутори: О. Тодоровић и С. Огњановић

РАДНИ ЛИСТИЋ	
ПРВИ РАЗРЕД	ОТВОРЕНЕ И ЗАТВОРЕНЕ ЛИНИЈЕ
Име и презиме	

1. Затворене линије обој црвеном бојом, а отворене плавом.



Аутори: О. Тодоровић и С. Огњановић

РАДНИ ЛИСТИЋ	
ПРВИ РАЗРЕД	У, НА И ВАН
Име и презиме	

1. Где се налази лоптица? Заокружи тачан одговор.

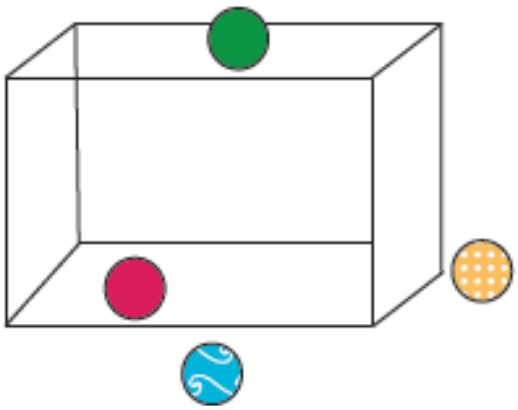

а) У кутији б) Ван кутије в) На кутији

а) У кутији б) Ван кутије в) На кутији

а) У кутији б) Ван кутије в) На кутији

а) У кутији б) Ван кутије в) На кутији

Аутори: О. Тодоровић и С. Огњановић

РАДНИ ЛИСТИЋ	
ПРВИ РАЗРЕД	Скуп, елемент скупа
Име и презиме	

1. Елементе скупа правоугаоника обој црвеном бојом. Елементе скупа троуглова обој плавом бојом. Елементе скупа звездица обој жутом бојом.



2. Елементе који **не припадају** скупу ваљака обој црвеном бојом.

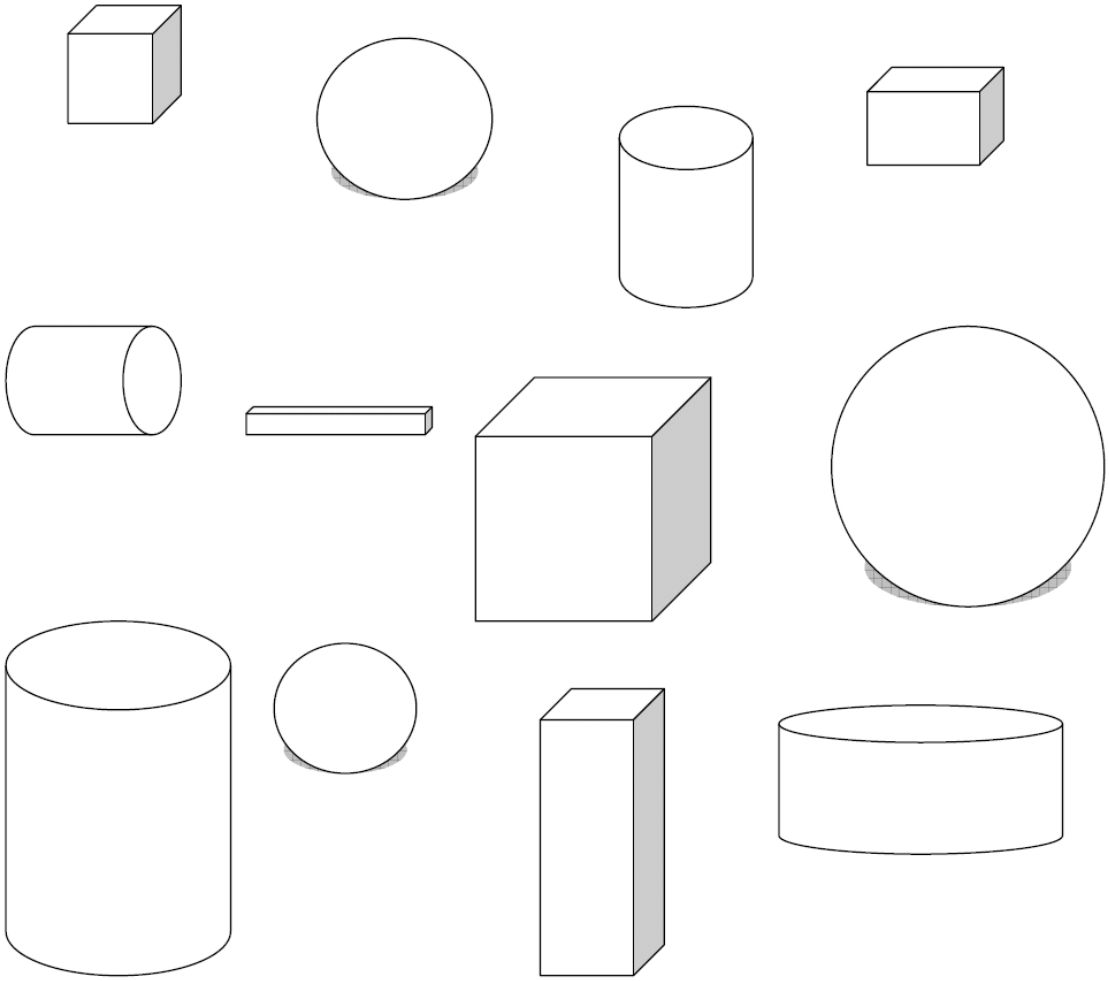

Аутори: О. Тодоровић и С. Огњановић

РАДНИ ЛИСТИЋ	
ПРВИ РАЗРЕД	Скуп, елемент скупа
Име и презиме	

1. Прецртај елемент који не припада датом скупу и именуј дати скуп.



Аутори: О. Тодоровић и С. Огњановић

РАДНИ ЛИСТИЋ	
ПРВИ РАЗРЕД	Скупови са различитим и истим бројем елемената
Име и презиме	

1. Заокружи скуп са већим бројем елемената и именуј сваки скуп.

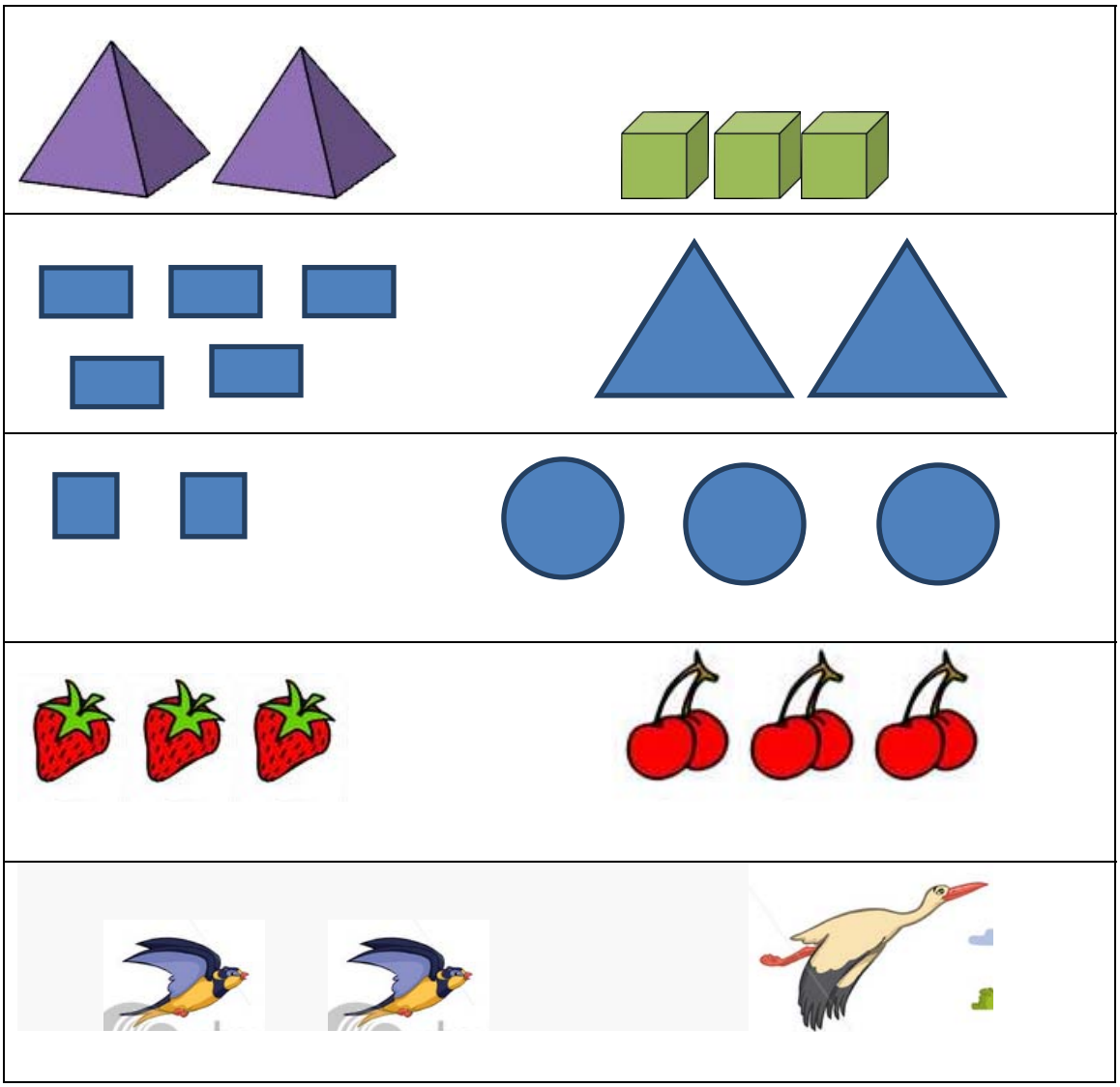

2. Дат је скуп коцака.

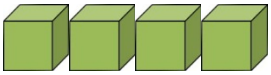

Који скуп има исти број елемената? Заокружи га. Нацртај скуп цветова са мањим бројем елемената.

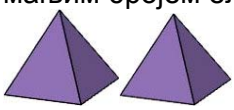

3. Дат је скуп јагода.

Заокружи скуп који има исти број елемената као и скуп јагода.



Нацртај скуп јабука са већим бројем елемената од скупа јагода.

Аутори: О.Тодоровић и С. Огњановић

РАДНИ ЛИСТИЋ	
ПРВИ РАЗРЕД	БРОЈ 1
Име и презиме	

1. Обој оне предмете којих има само по један.



2. Нацртај предмет који је у твојој кући само један.

3. Настави да пишеш цифру 1.

1									

Аутори: О. Тодоровић и С. Огњановић

РАДНИ ЛИСТИЋ	
ПРВИ РАЗРЕД	БРОЈ 2
Име и презиме	

1. Обој онолико елемената скупа као што је назначено бројевима.

	**1**
	**2**
	2
	1

2. Настави да пишеш цифру 2.

2									

Аутори: О. Тодоровић и С. Огњановић

РАДНИ ЛИСТИЋ	
ПРВИ РАЗРЕД	БРОЈ 3
Име и презиме	

1. Нацртај онолико елемената скупа као што је назначено бројевима.

	2
	3
	3
	2

2. Настави да пишеш цифру 3.

3									

Аутори: О.Тодоровић и С. Огњановић

РАДНИ ЛИСТИЋ	
ПРВИ РАЗРЕД	БРОЈ 4
Име и презиме	

1. Преброј и упиши одговарајући број, као што је започето.

	1
	
	
	

2. Настави да пишеш цифру 4.

4									

3. Обој разне облике састављене од 4 квадрата.

Аутори: О. Тодоровић и С. Огњановић

РАДНИ ЛИСТИЋ	
ПРВИ РАЗРЕД	БРОЈ 5
Име и презиме	

1. Доцртај предмете тако да их буде 5.

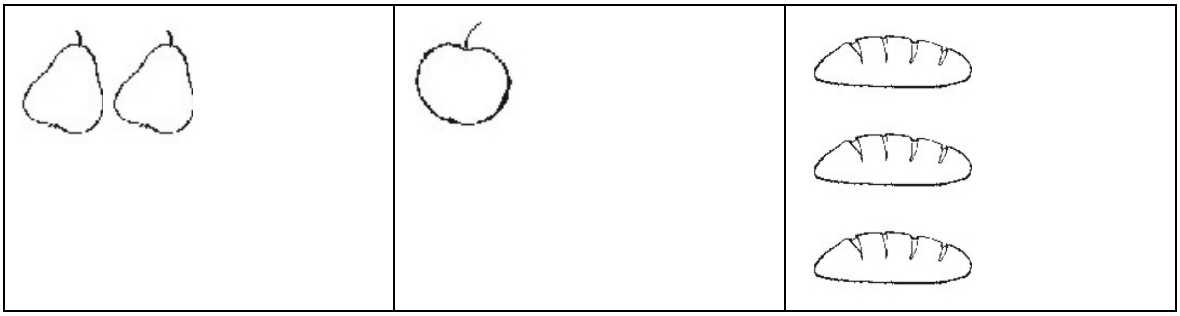

2. Настави да пишеш цифру 5.



3. Обој онолико квадрата колико је показано коцкицом.



Аутори: О.Тодоровић и С. Огњановић

РАДНИ ЛИСТИЋ	
ПРВИ РАЗРЕД	УПОРЕЂИВАЊЕ БРОЈЕВА
Име и презиме	

1. Упореди бројеве.

1	=	1
1		2
2		2
2		1
1		3

3		1
3		2
3		3
1	<	4
2		4

3		4
4		4
4	>	3
4		2
4		1

5		3
3		5
2		4
1		5
5		2

Аутори: О.Тодоровић и С. Огњановић

РАДНИ ЛИСТИЋ	
ПРВИ РАЗРЕД	САБИРАЊЕ
Име и презиме	

1. Израчунај.

4 + 1 = ... 2 + 2 = ... 1 + 3 = ...

3 + 1 = ... 2 + 3 = ... 1 + 2 = ...

2 + 1 = ... 3 + 2 = ... 3 + 2 = ...

1 + 1 = ... 1 + 4 = ... 2 + 2 = ...

2. Упиши правилно знаке <или > , као што је започето.

3	<	2		1
2		4		5
1		2		3
5		3		2

Аутори: О.Тодоровић и С. Огњановић

РАДНИ ЛИСТИЋ	
ПРВИ РАЗРЕД	ОДУЗИМАЊЕ
Име и презиме	

1. Израчунај.

4 - 1 = ... 4 - 2 = ... 5 - 4 = ...

3 - 1 = ... 3 - 2 = ... 5 - 2 = ...

2 - 1 = ... 5 - 2 = ... 4 - 2 = ...

5 - 1 = ... 4 - 3 = ... 5 - 3 = ...

2. Упиши правилно знаке + или -.

3	-	2	=	1
4		1	=	5
1		2	=	3
5		3	=	2
1		1	=	2
4		3	=	1

ЗАВОД ЗА УЏБЕНИКЕ

Аутори: О.Тодоровић и С. Огњановић

РАДНИ ЛИСТИЋ	
ПРВИ РАЗРЕД	Број 0
Име и презиме	

1. Помози веверици да нађе пут до нуле.

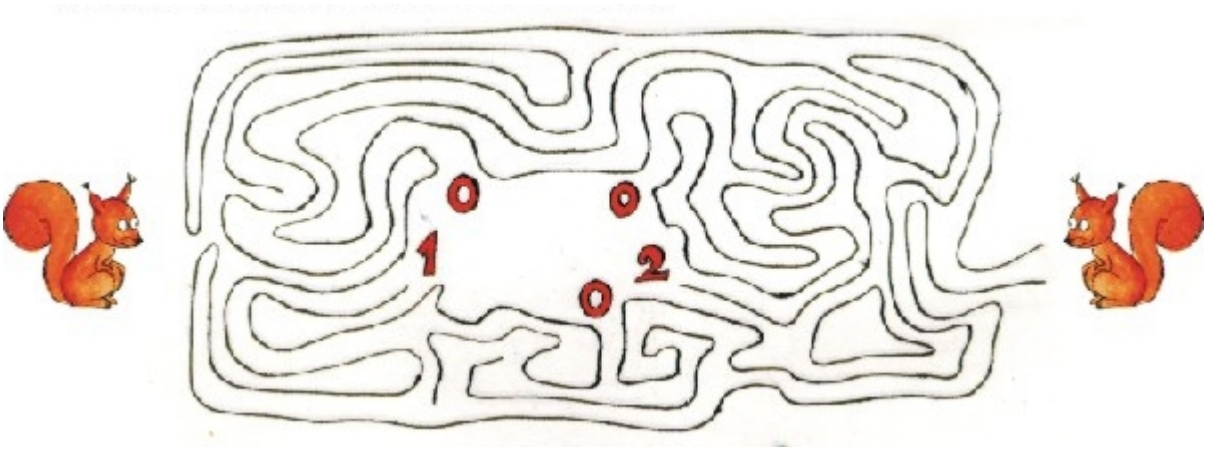

2. Настави да пишеш цифру 0.

3. Израчунај.

4 - 4 = ... 2 + 0 = ... 5 - 0 = ...

3 + 0 = ... 3 - 3 = ... 5 + 0 = ...

2 - 0 = ... 5 - 0 = ... 2 - 2 = ...

5 - 5 = ... 4 - 4 = ... 3 - 3 = ...

Аутори: О. Тодоровић и С. Огњановић

РАДНИ ЛИСТИЋ	
ПРВИ РАЗРЕД	БРОЈ 6
Име и презиме	

1. Доцртај предмете тако да их буде 6.

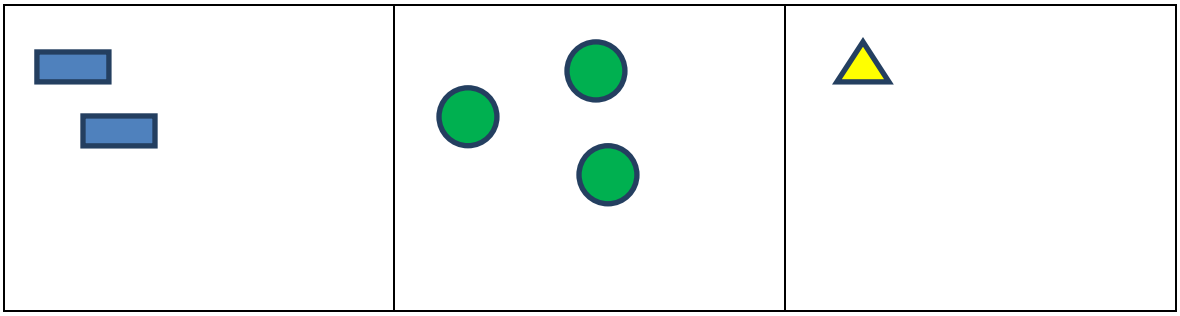

2. Настави да пишеш цифру 6.

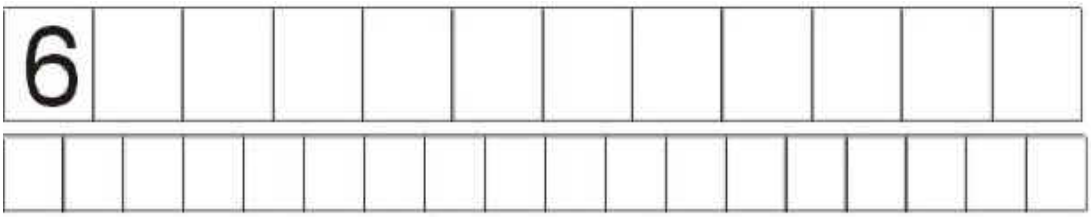

3. Заокружи 6 бомбона. Колико је остало незаокружених бомбона?

4. Упиши одговарајући број тако да резултат буде број који се налази изнад табеле.

5		
5	+	
4	+	
3	+	
2	+	
1	+	
0	+	

6		
3	+	
2	+	
4	+	
6	+	
5	+	
1	+	
0	+	

1		
5	-	
6	-	
3	-	
1	-	
4	-	
5	-	

5. Израчунај и заокружи тачан збир.

3 + 2 = 6 4 + 2 = 6 3 + 3 = 6

1 + 5 = 6 4 + 1 = 6 6 + 0 = 6

6. Допиши у празно поље број тако да њихов збир на свакој страници буде 6.

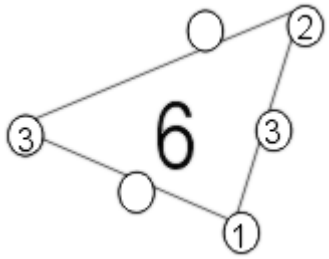

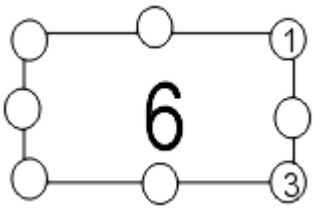

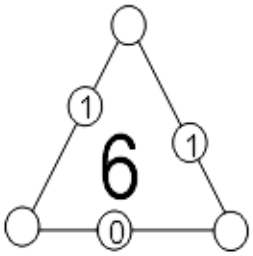

Аутори: О. Тодоровић и С. Огњановић

РАДНИ ЛИСТИЋ	
ПРВИ РАЗРЕД	БРОЈ 7
Име и презиме	

1. Доцртај елементе тако да их буде 7.

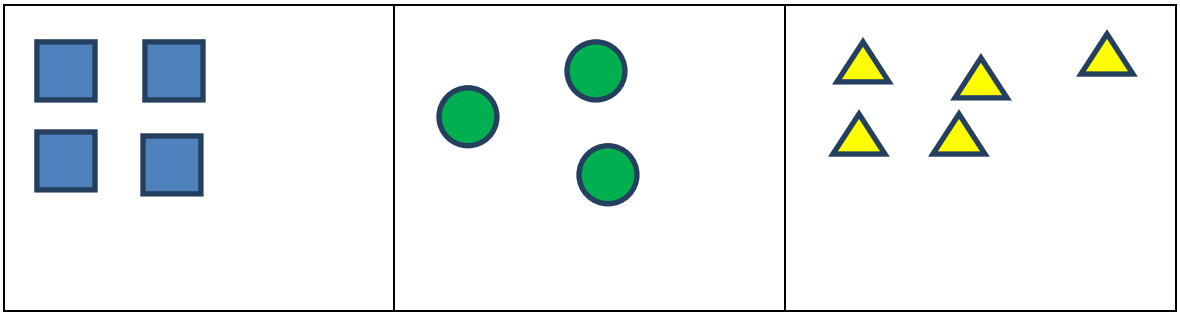

2. Настави да пишеш цифру 7.



3. Заокружи 7 бомбона. Колико их је остало незаокружених?

4. Израчунај.

5 + 2 = ...	7 - 4 = ...	7 + 0 = ...	6 - 4 = ...	7 - 3 = ...
3 + 4 = ...	7 - 2 = ...	5 + 2 = ...	7 - 7 = ...	1 + 6 = ...
2 + 3 = ...	6 - 0 = ...	6 + 1 = ...	6 - 5 = ...	5 - 2 = ...
4 + 0 = ...	1 - 1 = ...	2 + 5 = ...	4 - 3 = ...	3 - 1 = ...

5. Попуни табелу, као што је започето.

	5 + 2 = 7

6. Упиши бројеве који недостају.

5 + _ = 7	_ + 3 = 7	7 - _ = 7
6 - _ = 3	4 + _ = 6	6 - _ = 6
_ + 0 = 7	_ + 3 = 7	5 - _ = 5
7 - _ = 1	2 + _ = 5	6 + _ = 7

Аутори: О. Тодоровић и С. Огњановић

РАДНИ ЛИСТИЋ	
ПРВИ РАЗРЕД	БРОЈ 8
Име и презиме	

1. Доцртај елементе тако да их буде 8.

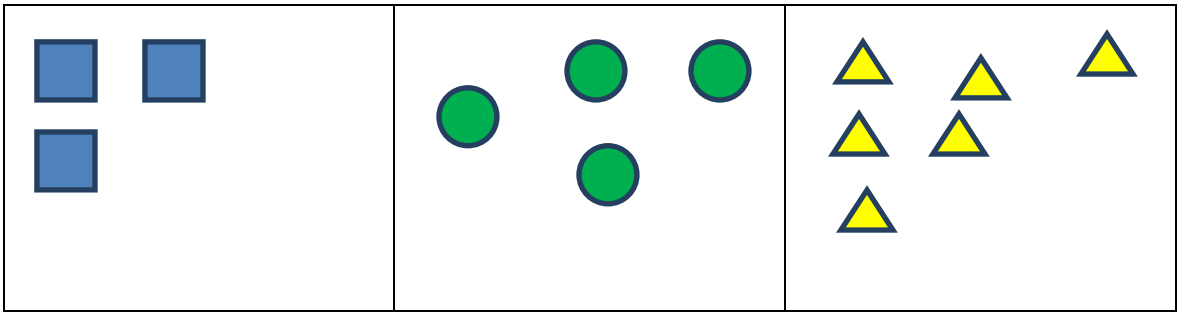

2. Настави да пишеш цифру 8.



3. Обој онолико квадрата колико је назначено бројевима. Запиши колико квадрата ниси обојио.

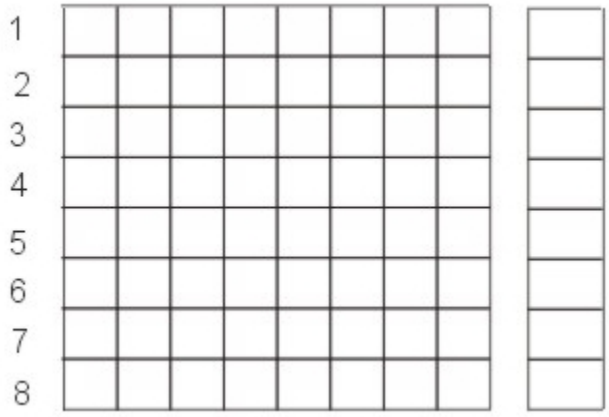

4. Израчунај.

5 + 3 = ...	8 - 7 = ...	8 + 0 = ...	8 - 4 = ...	7 - 3 = ...
3 + 2 = ...	8 - 3 = ...	6 + 2 = ...	8 - 7 = ...	1 + 6 = ...
2 + 6 = ...	8 - 5 = ...	7 + 1 = ...	8 - 8 = ...	6 - 2 = ...
4 + 4 = ...	8 - 1 = ...	2 + 5 = ...	8 - 0 = ...	5 - 1 = ...

5. Попуни табелу, као што је започето.

	5 + 3 = 8

6. Упиши бројеве који недостају.

5 + _ = 8	_ + 3 = 8	8 - _ = 8
8 - _ = 3	4 + _ = 8	8 - _ = 6
_ + 0 = 8	_ + 3 = 8	8 - _ = 5
8 - _ = 1	2 + _ = 8	6 + _ = 8

Аутори: О. Тодоровић и С. Огњановић

РАДНИ ЛИСТИЋ	
ПРВИ РАЗРЕД	БРОЈ 9
Име и презиме	

1. Преброј и заокружи број који одговара броју предмета у сваком скупу.

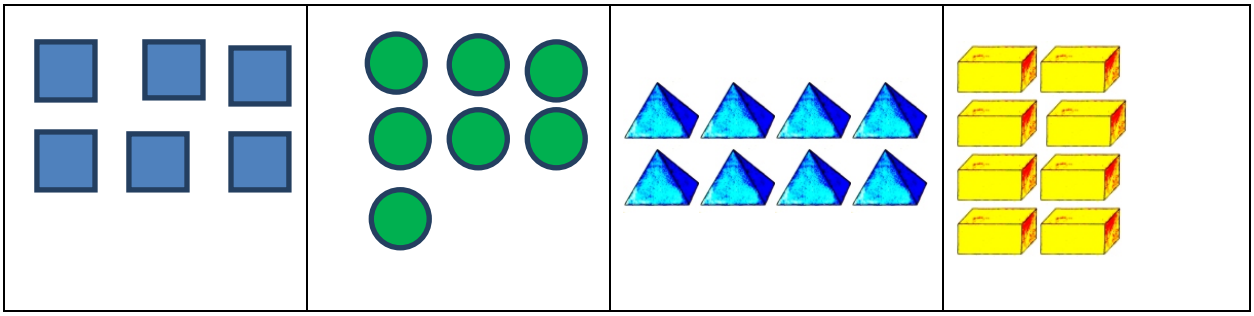

5 6 7 8 9 5 6 7 8 9 5 6 7 8 9 5 6 7 8 9

2. Настави да пишеш цифру 9.

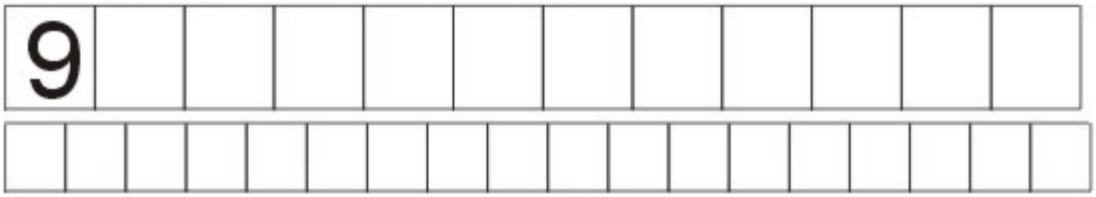

3. Обој као што је показано.

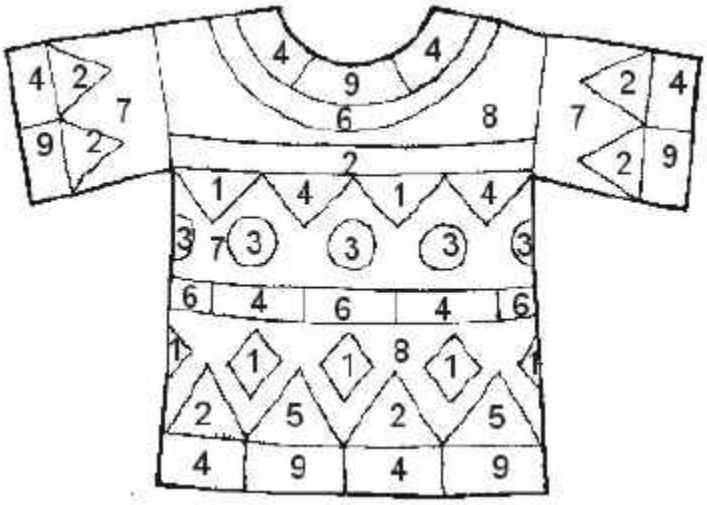

4. Израчунај.

5 + 4 = ...	9 - 7 = ...	9 + 0 = ...	9 - 4 = ...	9 - 3 = ...
3 + 6 = ...	9 - 3 = ...	7 + 2 = ...	9 - 7 = ...	1 + 8 = ...
2 + 7 = ...	9 - 5 = ...	8 + 1 = ...	9 - 8 = ...	9 - 2 = ...
1 + 8 = ...	9 - 1 = ...	4 + 5 = ...	9 - 0 = ...	9 - 9 = ...

5. Попуни табелу, као што је започето.

	5 + 4 = 9

6. Упиши бројеве који недостају.

5 + _ = 9	_ + 3 = 9	9 - _ = 9
9 - _ = 3	4 + _ = 9	9 - _ = 6
_ + 0 = 9	_ + 8 = 9	9 - _ = 5
9 - _ = 1	2 + _ = 9	7 + _ = 9

Аутори: О. Тодоровић и С. Огњановић

РАДНИ ЛИСТИЋ	
ПРВИ РАЗРЕД	БРОЈ 10
Име и презиме	

1. Доцртај фигуре тако да буде 10.

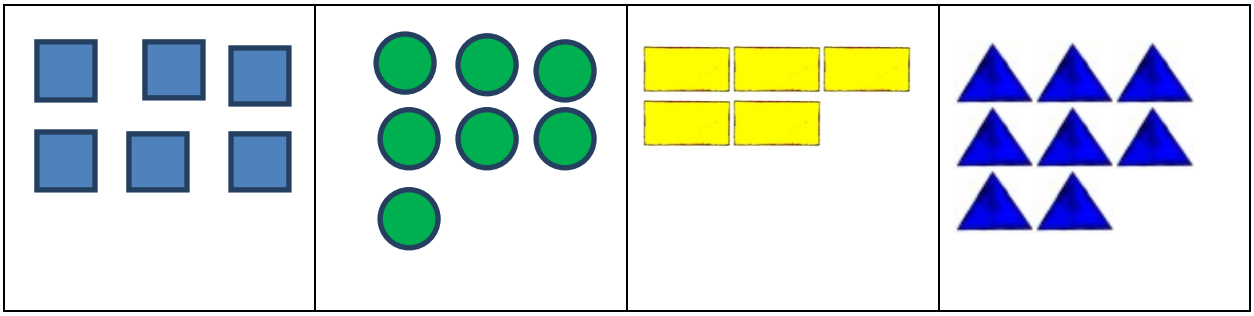

2. Настави да пишеш број 10.

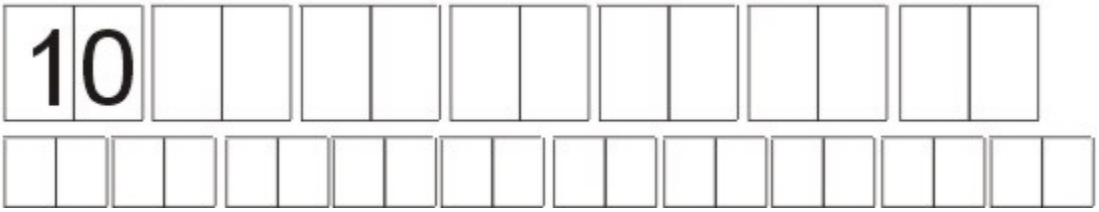

3. Обој онолико квадрата колико има тачкица на коцкама.

4. Израчунај.

5 + 5 = ... 10 - 7 = ... 10 + 0 = ... 10 - 4 = ... 8 - 3 = ...
4 + 6 = ... 10 - 3 = ... 7 + 3 = ... 10 - 2 = ... 1 + 8 = ...
2 + 8 = ... 10 - 5 = ... 8 + 1 = ... 10 - 8 = ... 9 - 2 = ...
1 + 9 = ... 10 - 1 = ... 4 + 5 = ... 10 - 0 = ... 10 - 9 = ...

5. Обој са одговором 10, као што је започето.

10 - 5	0 + 3	10 - 1	3 + 3	6 + 3
5 + 4	1 + 9	2 + 8	5 + 5	8 - 2
10 - 4	3 + 7	1 + 2	2 + 3	6 - 3
8 - 5	4 + 6	8 + 2	9 + 1	7 + 2
3 + 2	10 + 0	1 + 8	4 - 2	1 + 4
3 + 6	0 + 10	6 + 4	7 + 3	10 - 1
7 - 4	1 + 2	10 - 7	7 - 1	9 - 4

6. Упиши бројеве који недостају.

5 + _ = 10 _ + 3 = 10 10 - _ = 9

10 - _ = 3 4 + _ = 10 10 - _ = 6

_ + 0 = 10 _ + 8 = 10 10 - _ = 5

10 - _ = 1 2 + _ = 10 7 + _ = 10

Аутори: О. Тодоровић и С. Огњановић

РАДНИ ЛИСТИЋ	
ПРВИ РАЗРЕД	САБИРАЊЕ И ОДУЗИМАЊЕ ДО 10
Име и презиме	

1. Израчунај.

5 + 4 = ... 9 - 5 = ... 7 + 2 = ... 10 - 4 = ... 7 - 1 = ...
2 + 7 = ... 10 - 3 = ... 8 + 2 = ... 9 - 9 = ... 8 - 4 = ...
2 + 5 = ... 9 - 7 = ... 6 + 4 = ... 8 - 3 = ... 8 - 5 = ...
4 + 4 = ... 10 - 8 = ... 3 + 7 = ... 6 - 5 = ... 9 - 8 = ...

2. Упиши бројеве који недостају.

7 + _ = 10 _ + 3 = 8 9 - _ = 9

9 - _ = 3 4 + _ = 9 10 - _ = 8

_ + 10 = 10 _ + 5 = 10 8 - _ = 5

10 - _ = 6 2 + _ = 6 7 + _ = 10

3. Упиши бројеве који недостају.

	10	
4	1	5
2	5	
	3	6

	10	
1		4
	2	2
3		5

4. Упиши знак +, - и =

4	+	4	=	8
5		4		9
8		3		5
6		3		3
5		5		10
9		3		6

5. Упиши број који недостаје.

	8	
3	5	
1	2	3

	9	
	5	
2	2	3

6. У посластичарници ***Срце*** има 10 столова, а у башти је 3 стола мање. Колико столова има у башти?

7. Мила је позвала на рођендан 9 другарица. Поставила је сто као што је показано на слици. Колико још тањирића треба да стави на сто?



Аутори: О. Тодоровић и С. Огњановић

РАДНИ ЛИСТИЋ	
ПРВИ РАЗРЕД	САБИРАЊЕ И ОДУЗИМАЊЕ ДО 10
Име и презиме	

1. Израчунај.

4	3	2	6	2	7	0	3
+ 2	+ 1	+ 7	+ 4	+ 0	+ 3	+ 1	+ 3
6	0	5	3	8	1	2	4
+ 3	+ 2	+ 2	+ 0	+ 2	+ 3	+ 6	+ 1
3	1	7	4	0	2	6	1
+ 7	+ 2	+ 2	+ 3	+ 3	+ 5	+ 2	+ 9
2	3	5	0	7	1	3	9
+ 3	+ 5	+ 1	+ 6	+ 0	+ 4	+ 1	+ 0

Аутори: О. Тодоровић и С. Огњановић

1	5	3	0	2	4	7	0
+ 8	+ 5	+ 4	+ 8	+ 2	+ 6	+ 1	+ 5
0	3	1	2	4	8	0	5
+ 9	+ 2	+ 6	+ 8	+ 0	+ 1	+ 7	+ 4
8	4	0	1	6	2	5	1
+ 0	+ 4	+ 4	+ 5	+ 0	+ 4	+ 3	+ 7
6	0	9	5	2	3	4	1
+ 1	+ 0	+ 1	+ 0	+ 1	+ 6	+ 5	+ 0

Аутори: О. Тодоровић и С. Огњановић

10	6	10	3	6	7	2	6
- 3	- 2	- 6	- 0	- 4	- 4	- 1	- 5
10	3	5	9	7	8	9	7
- 9	- 1	- 0	- 3	- 6	- 0	- 2	- 1
6	7	3	10	6	4	3	5
- 3	- 7	- 2	- 1	- 0	- 4	- 3	- 3
1	10	1	4	10	5	10	8
- 0	- 5	- 1	- 2	- 4	- 1	- 7	- 2
8	6	7	9	5	10	9	9
- 8	- 6	- 5	- 4	- 5	- 2	- 5	- 9

Аутори: О. Тодоровић и С. Огњановић

9	9	10	9	8	5	7	7
- 1	- 0	- 8	- 7	- 7	- 2	- 0	- 3
7	5	6	8	2	9	8	9
- 2	- 4	- 1	- 1	- 0	- 6	- 3	- 8
8	2	8	4	8	4	6	4
- 4	- 2	- 6	- 3	- 5	- 0	- 2	- 1

Аутори: О. Тодоровић и С. Огњановић

РАДНИ ЛИСТИЋ	
ПРВИ РАЗРЕД	ПРЕДСТАВЉАЊЕ БРОЈЕВА НА БРОЈЕВНОЈ ПРАВОЈ
Име и презиме	

1. За сваки цртеж напиши одговарајућу једнакост.

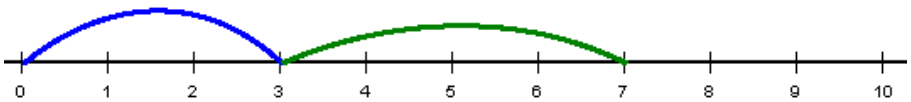

__ + __ = ____

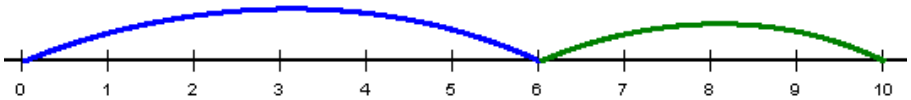

__ + __ = ____

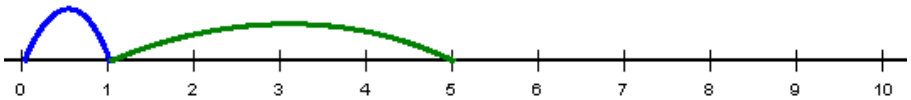

__ + __ = ____

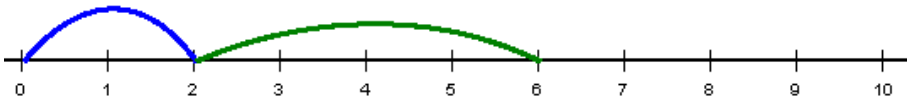

__ + __ = ____

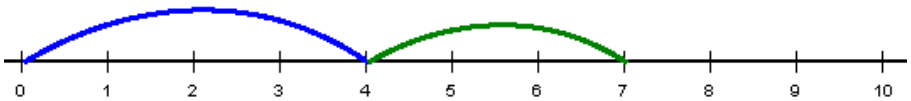

__ + __ = ____

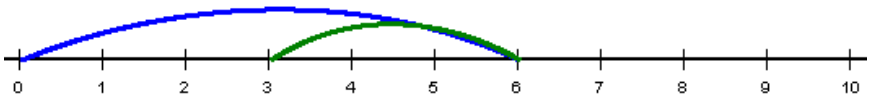

__ - __ = ___

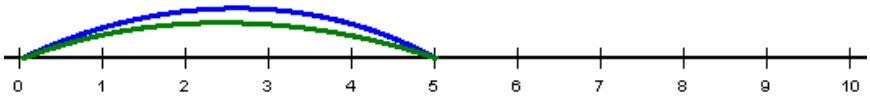

__ - __ = ___

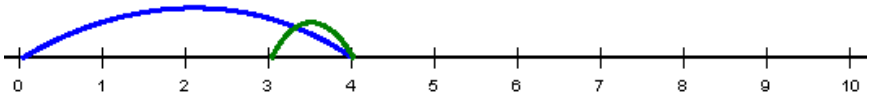

__ - __ = ___

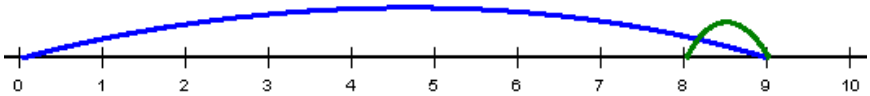

__ - __ = ___

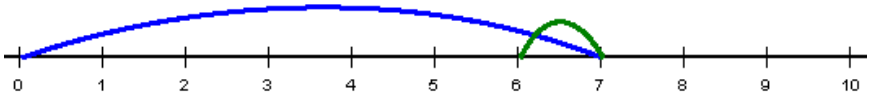

__ - __ = ___

2. Прикажи стрелицама сабирање 4 + 2.

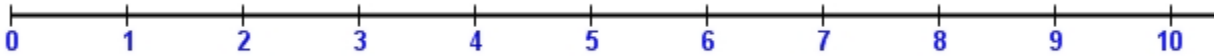

3. Прикажи стрелицама одузимање 8 - 5.

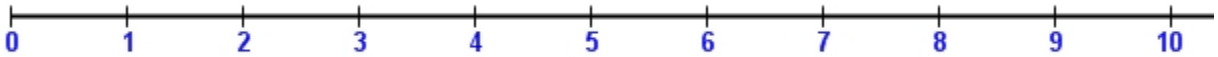

Аутори: О. Тодоровић и С. Огњановић

РАДНИ ЛИСТИЋ	
ПРВИ РАЗРЕД	САБИРЦИ И ЗБИР
Име и презиме	

1. Прво израчунај, а затим црвеном бојом заокружи збирове у којима је други сабирак број 2. Плавом бојом заокружи збирове у којима је први сабирак број 6. Зеленом бојом заокружи сабирања у којима је збир 10.

$$\begin{array}{r} 1 \\ +\ 6 \\ \hline \end{array} \qquad \begin{array}{r} 5 \\ +\ 5 \\ \hline \end{array} \qquad \begin{array}{r} 4 \\ +\ 2 \\ \hline \end{array} \qquad \begin{array}{r} 2 \\ +\ 0 \\ \hline \end{array}$$

$$\begin{array}{r} 2 \\ +\ 7 \\ \hline \end{array} \qquad \begin{array}{r} 5 \\ +\ 2 \\ \hline \end{array} \qquad \begin{array}{r} 9 \\ +\ 1 \\ \hline \end{array} \qquad \begin{array}{r} 6 \\ +\ 3 \\ \hline \end{array}$$

7 + 3 = ...
4 + 5 = ...
6 + 2 = ...
2 + 7 = ...

8 + 2 = ...
2 + 6 = ...
9 + 1 = ...
10 + 0 = ...

2. Попуни табелу.

Први сабирак	1	5		3		7		10	
Други сабирак	4		6	3	4	1	5		9
Збир		8	9		10		7	0	10

Аутори: О.Тодоровић и С. Огњановић

РАДНИ ЛИСТИЋ	
ПРВИ РАЗРЕД	СВОЈСТВА САБИРАЊА
Име и презиме	

1. Повежи и нацртај шта недостаје.

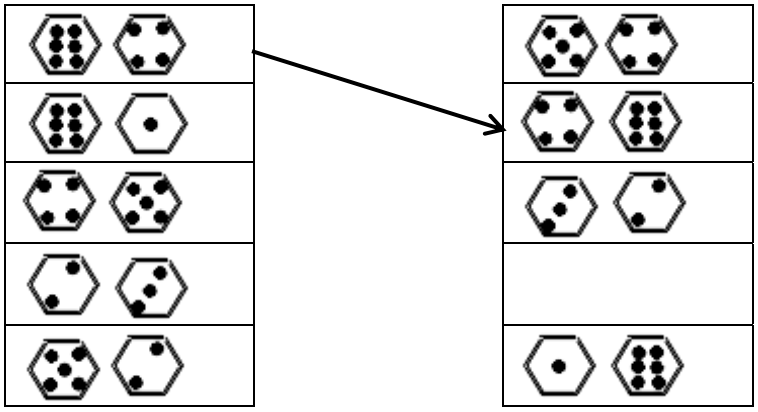

2. Сабери на два начина.

Први начин: 4 + 5 + 1 = (4 +5) + 1 = __ + __ = ___

Други начин: 4 + 5 + 1 = 4 + (5 + 1) = __ + __ = ___

3. Сабери на два начина:

3 + 4 + 1 = ...
3 + 4 + 1 = ...
3 + 2 + 5 = ...
3 + 2 + 5 = ...
2 + 6 + 0 = ...
2 + 6 + 0 = ...

Аутори: О. Тодоровић и С. Огњановић

РАДНИ ЛИСТИЋ	
ПРВИ РАЗРЕД	УМАЊЕНИК, УМАЊИЛАЦ И РАЗЛИКА
Име и презиме	

1. Прво израчунај, а затим црвеном бојом заокружи разлике у којима је умањеник број 9. Плавом бојом заокружи разлике у којима је умањилац број 3. Зеленом бојом заокружи одузимања у којима је разлика 1.

$$\begin{array}{r} 10 \\ -\ 6 \\ \hline \end{array} \qquad \begin{array}{r} 5 \\ -\ 3 \\ \hline \end{array} \qquad \begin{array}{r} 9 \\ -\ 2 \\ \hline \end{array} \qquad \begin{array}{r} 10 \\ -\ 9 \\ \hline \end{array}$$

$$\begin{array}{r} 8 \\ -\ 7 \\ \hline \end{array} \qquad \begin{array}{r} 5 \\ -\ 2 \\ \hline \end{array} \qquad \begin{array}{r} 9 \\ -\ 1 \\ \hline \end{array} \qquad \begin{array}{r} 6 \\ -\ 3 \\ \hline \end{array}$$

8 - 3 = ...
9 - 8 = ...
10 - 2 = ...
7 - 7 = ...

8 - 2 = ...
3 - 1 = ...
9 - 6 = ...
10 - 0 = ...

2. Попуни табелу.

Умањеник	10	5		9		8		10	
Умањилац	4		6	3	4	1	5		9
Разлика		0	2		2		4	0	1

Аутори: О. Тодоровић и С. Огњановић

РАДНИ ЛИСТИЋ	
ПРВИ РАЗРЕД	ВЕЗА ИЗМЕЂУ САБИРАЊА И ОДУЗИМАЊА
Име и презиме	

1. Настави као што је започето.

6 + 4 = 10				
10 - 4 = 6				
10 - 6 = 4				

Аутори: О. Тодоровић и С. Огњановић

РАДНИ ЛИСТИЋ	
ПРВИ РАЗРЕД	ВЕЋИ ЗА, МАЊИ ЗА
Име и презиме	

1. Чега има мање, прозора или врата и за колико?



2. Чега има више, пирамида или палми и за колико?



3. У корпи је било 9 јабука. Сада је за 3 мање. Колико јабука је сада у корпи?

Једнакост _____

Одговор: _____

4. Ивана има 8 година, а њена сестра за једну мање. Колико година има Иванина сестра?

Једнакост _____

Одговор: _____

5. Новак има 6 тениских лоптица, а његов брат за 4 више. Колико тениских лоптица има Новаков брат?

Једнакост _____

Одговор: _____

Аутори: О.Тодоровић и С. Огњановић

РАДНИ ЛИСТИЋ	
ПРВИ РАЗРЕД	РЕДНИ БРОЈЕВИ
Име и презиме	

1. Напиши бројевима или речима.

3.				ДЕВЕТИ
	СЕДМИ		5.	
4.				ПРВИ
10.			8.	

2. Настави као што је започето.

	ЧЕТВРТА

Аутори: О. Тодоровић и С. Огњановић

РАДНИ ЛИСТИЋ	
ПРВИ РАЗРЕД	ОДРЕЂИВАЊЕ НЕПОЗНАТОГ БРОЈА
Име и презиме	

1. Упиши бројеве који недостају.

6 + _ = 10	_ + 5 = 8	9 - _ = 9
9 - _ = 8	4 + _ = 10	10 - _ = 5
_ + 1 = 10	_ + 0 = 10	8 - _ = 5
5 - _ = 3	2 + _ = 7	7 + _ = 10

2. Упиши бројеве који недостају.

10		
2	1	7
0	5	
	3	4

9		
1		4
	2	2
3		5

3. Одреди непознати сабирак.

6 + *a* = 7	*a* + 4 = 8	3 + *a* = 10
a = ___	*a* = ___	*a* = ___

Провера:

_ + _ = 7	_ + 4 = 8	3 + _ = 10

4. Одреди непознати умањеник и усмено провери.

а						
б	3	7	1	4	3	5
а - б	5	2	0	6	7	1

5. Одреди непознати умањилац.

9 - *а* = 7 4 - *а* = 3 10 - *а* = 2

а = ___ *а* = ___ *а* = ___

Провера:

9 - _ = 7 4 - _ = 3 10 - _ = 2

6. Весна је сестри дала 5 шналица и остало јој је још 5. Колико је Весна имала шналица пре него што је сестри дала 5?

Једнакост _____

Решење: _____

Провера: _____

7. Један воз је имао 4 вагона пре него што су му закачили још неколико. Сада тај воз има 7 вагона. Колико вагона су додали?

Једнакост _____

Решење: _____

Провера: _____

8. На једном столу је било 5 чаша. Када је келнер донео још неколико било их је тачно 7. Колико чаша је келнер донео?

Једнакост _____

Решење: _____

Провера: _____

Аутори: О. Тодоровић и С. Огњановић

РАДНИ ЛИСТИЋ	
ПРВИ РАЗРЕД	БРОЈЕВИ 11,12,13,14,15
Име и презиме	

1. Преброј и заокружи одговарајући број.



11 12 13 14 15 11 12 13 14 15 11 12 13 14 15 11 12 13 14 15

2. Запиши бројевима или речима.

12 _____ ____ петнаест

13 _____ ____ једанаест

14 _____ ____ тринаест

3. Упиши бројеве који недостају.

6		8	9			12			15

4	5		7				11		

Аутори: О. Тодоровић и С. Огњановић

РАДНИ ЛИСТИЋ	
ПРВИ РАЗРЕД	ДЕСЕТИЦА И ЈЕДИНИЦЕ
Име и презиме	

1. Заокружи 10 переца и упиши одговарајуће бројеве.



1 Д __J **__ Д __J** **__ Д __J** **__ Д __J**

2. Провери да ли је Милош тачно урадио домаћи задатак. Ако је направио грешку прецртај је и исправи.

1 Д 5 J = 15 J **13 J = 1 Д 3 J**

1 Д 0 J = 10 J **12 J = 1 Д 2 J**

0 Д 8 J = 8 J **11 J = 11Д 1 J**

1 Д 4 J = 14 J **6 J = 1 Д 6 J**

3. Напиши бројеве.

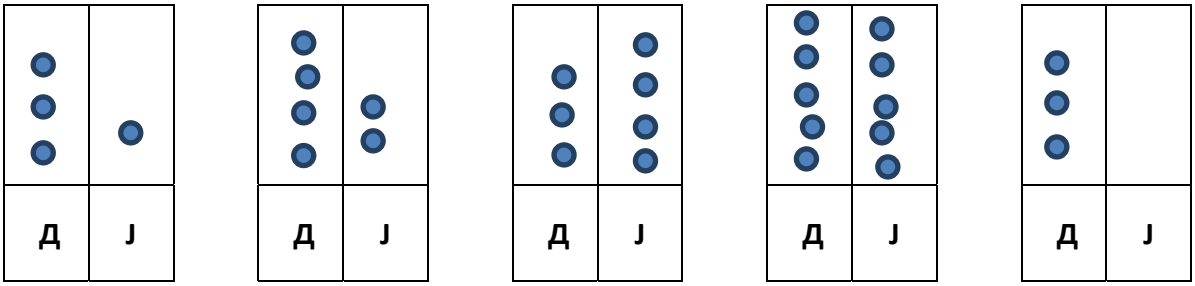

31

Аутори: О. Тодоровић и С. Огњановић

РАДНИ ЛИСТИЋ	
ПРВИ РАЗРЕД	БРОЈЕВИ 16, 17, 18, 19, 20
Име и презиме	

1. Преброј и заокружи одговарајући број.



16 17 18 19 20 16 17 18 19 20 16 17 18 19 20 16 17 18 19 20

2. Запиши бројевима или речима.

17 _____ ____ двадесет

19 _____ ____ осамнаест

16 _____ ____ деветнаест

3. Упиши бројеве који недостају.

11		13	14			17		19	

	9		11				15		

Аутори: О.Тодоровић и С. Огњановић

РАДНИ ЛИСТИЋ	
ПРВИ РАЗРЕД	БРОЈЕВИ до 20
Име и презиме	

1. Заокружи двоцифрене бројеве.

12, 3, 10, 5, 7, 11, 19, 20, 9, 8, 6, 16

2. Повежи редом бројеве од 1 до 20 и обој добијени цртеж.

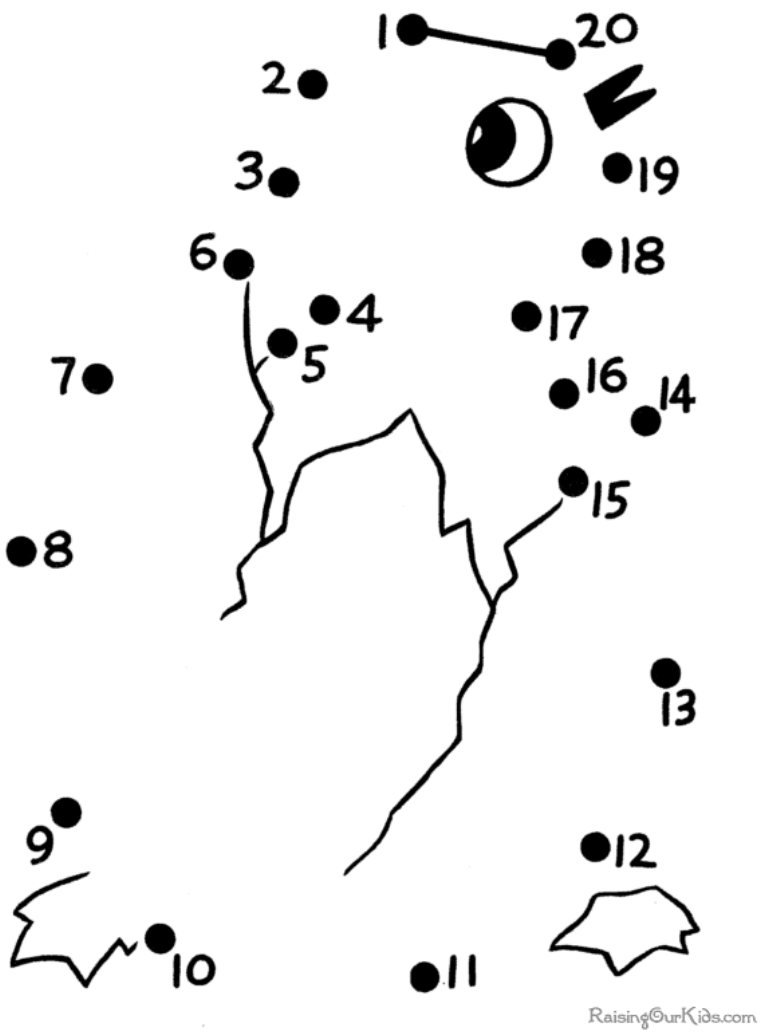

3. Упиши бројеве који недостају.

1		3	4					9	

11				15			18		

4. Попуни табелу.

Број	**Д**	**J**
12	1	2
18	1	
11		
10		0
	1	4
20		
19	1	

Аутори: О. Тодоровић и С. Огњановић

РАДНИ ЛИСТИЋ	
ПРВИ РАЗРЕД	УПОРЕЂИВАЊЕ БРОЈЕВА до 20
Име и презиме	

1. Упореди бројеве.

10	=	10
11		20
12		17
2		10
15		14

3		1
16		20
13		13
11	<	14
20		19

3		4
14		14
14	>	13
14		12
14		11

15		13
13		15
12		14
11		5
5		2

2. Поређај бројеве редом од најмањег до највећег:

14, 7, 17, 8, 3, 1, 10, 11, 20, 2

_____

Аутори: О. Тодоровић и С. Огњановић

РАДНИ ЛИСТИЋ	
ПРВИ РАЗРЕД	САБИРАЊЕ И ОДУЗИМАЊЕ 10 + 3, 13 - 3
Име и презиме	

1. Израчунај.

10 + 4 = ... 19 - 9 = ... 10 + 2 = ... 14 - 4 = ... 11 - 1 = ...

10 + 7 = ... 12 - 2 = ... 8 + 10 = ... 19 - 9 = ... 13 - 3 = ...

10 + 5 = ... 17 - 7 = ... 6 + 10 = ... 15 - 5 = ... 18 - 5 = ...

1 + 10 = ... 18 - 8 = ... 3 + 10 = ... 16 - 6 = ... 19 - 9 = ...

2. Израчунај.

10	10	10	10	10	10	10	10
+ 2	+ 1	+ 7	+ 4	+ 0	+ 5	+ 6	+ 3

6	10	10	3	10	10	10	10
+ 10	+ 9	+ 8	+ 10	+ 2	+ 3	+ 6	+ 4

13	16	15	11	14	17	12	18
- 3	- 6	- 5	- 1	- 4	- 7	- 2	- 8

10	13	11	19	17	18	19	16
- 0	- 3	- 1	- 9	- 7	- 8	- 9	- 6

3. Упиши бројеве који недостају.

7 + _ = 17	_ + 3 = 13	19 - _ = 9
19 - _ = 10	4 + _ = 14	18 - _ = 8
_ + 10 = 10	_ + 5 = 15	11 - _ = 1
16 - _ = 6	10 + _ = 16	10 + _ = 12

Аутори: О. Тодоровић и С. Огњановић

РАДНИ ЛИСТИЋ	
ПРВИ РАЗРЕД	САБИРАЊЕ И ОДУЗИМАЊЕ 12 + 3
Име и презиме	

1. Израчунај.

11 + 4 = ... 19 + 0 = ... 13 + 2 = ... 14 + 4 = ... 11 + 1 = ...

12 + 7 = ... 12 + 2 = ... 8 + 11 = ... 12 + 6 = ... 13 + 5 = ...

14 + 5 = ... 17 + 1 = ... 6 + 13 = ... 15 + 1 = ... 18 + 0 = ...

1 + 18 = ... 11 + 8 = ... 3 + 14 = ... 16 + 3 = ... 11 + 5 = ...

2. Израчунај.

12	14	11	12	19	13	12	16
+ 2	+ 1	+ 7	+ 4	+ 0	+ 5	+ 6	+ 3

6	17	11	3	15	13	18	14
+ 11	+ 2	+ 8	+ 12	+ 2	+ 3	+ 1	+ 4

13	16	15	11	14	17	12	18
+ 3	+ 2	+ 4	+ 1	+ 4	+ 2	+ 7	+ 1

19	13	11	16	17	18	14	16
+ 0	+ 5	+ 8	+ 3	+ 1	+ 0	+ 5	+ 1

3. Упиши бројеве који недостају.

6 + _ = 17	_ + 3 = 14	19 + _ = 19
19 + _ = 10	4 + _ = 15	18 + _ = 19
_ + 11 = 17	_ + 5 = 18	1 + _ = 13
16 + _ = 19	12 + _ = 16	11 + _ = 12

Аутори: О. Тодоровић и С. Огњановић

РАДНИ ЛИСТИЋ	
ПРВИ РАЗРЕД	ОДУЗИМАЊЕ 15 - 3
Име и презиме	

1. Израчунај.

15 - 4 = ... 19 - 6 = ... 13 - 2 = ... 14 - 1 = ... 11 - 0 = ...

19 - 7 = ... 18 - 2 = ... 18 - 1 = ... 19 - 5 = ... 13 - 2 = ...

18 - 5 = ... 17 - 6 = ... 16 - 3 = ... 15 - 4 = ... 18 - 5 = ...

19 - 1 = ... 18 - 8 = ... 13 - 0 = ... 16 - 6 = ... 19 - 8 = ...

2. Израчунај.

18	13	19	16	15	19	17	14
- 2	- 1	- 7	- 4	- 0	- 5	- 6	- 3

16	19	19	13	14	18	15	17
- 1	- 9	- 8	- 1	- 2	- 4	- 1	- 2

ЗАВОД ЗА УЏБЕНИКЕ

13	16	15	12	14	17	15	18
- 3	- 5	- 4	- 1	- 2	- 6	- 2	- 7

14	13	11	19	17	18	19	16
- 0	- 2	- 1	- 8	- 3	- 5	- 3	- 1

3. Упиши бројеве који недостају.

17 - _ = 14	_ - 3 = 13	19 - _ = 8
19 - _ = 3	14 - _ = 2	18 - _ = 7
_ - 15 = 1	_ - 5 = 13	16 - _ = 1
16 - _ = 0	19 - _ = 16	15 - _ = 12

Аутори: О. Тодоровић и С. Огњановић

РАДНИ ЛИСТИЋ	
ПРВИ РАЗРЕД	САБИРАЊЕ 9 + 6
Име и презиме	

1. Настави као што је започето.

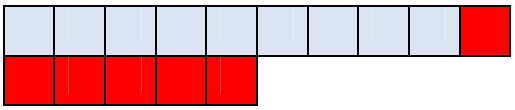

9 + 6 = 9 + 1 + 5 = 10 + 5 = 15

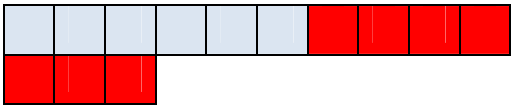

_____

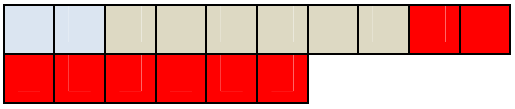

_____

2. Израчунај.

8 + 2 = ... 8 + 3 = ... 8 + 4 = ...

6 + 5 = ... 7 + 4 = ... 9 + 2 = ...

8 + 5 = ... 6 + 6 = ... 8 + 7 = ...

9 + 9 = ... 7 + 7 = ... 9 + 5 = ...

3. Упиши бројеве који недостају.

7 + _ = 11	_ + 3 = 12	9 + _ = 18
9 + _ = 15	4 + _ = 13	6 + _ = 13
_ + 7 = 12	_ + 5 = 11	8 + _ = 16
8 + _ = 16	9 + _ = 14	8 + _ = 17

4. Израчунај.

9	6	4	8	8	9	8	9
+ 2	+ 5	+ 7	+ 4	+ 8	+ 5	+ 6	+ 3

6	8	5	7	6	9	7	8
+ 7	+ 9	+ 8	+ 8	+ 6	+ 9	+ 6	+ 8

Аутори: О. Тодоровић и С. Огњановић

РАДНИ ЛИСТИЋ	
ПРВИ РАЗРЕД	ОДУЗИМАЊЕ 15 - 6
Име и презиме	

1. Настави као што је започето.

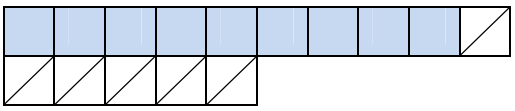

15 - 6 = 15 - 5 - 1 = 10 - 1 = 9

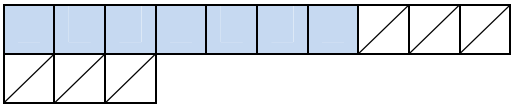

_____

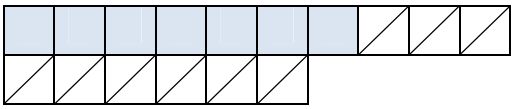

_____

2. Израчунај.

13 - 3 = ... 13 - 4 = ... 13 - 5 = ...

16 - 8 = ... 17 - 9 = ... 12 - 9 = ...

18 - 9 = ... 16 - 7 = ... 11 - 6 = ...

12 - 3 = ... 17 - 8 = ... 15 - 8 = ...

3. Упиши бројеве који недостају.

17 - _ = 9	_ - 3 = 9	14 - _ = 5
11 - _ = 2	14 - _ = 5	16 - _ = 8
_ - 7 = 6	_ - 5 = 8	18 - _ = 9
15 - _ = 7	11 - _ = 3	14 - _ = 7

4. Израчунај.

11	16	14	12	18	13	12	11
- 2	- 8	- 7	- 4	- 9	- 5	- 6	- 3

16	13	15	17	16	11	14	12
- 7	- 9	- 7	- 8	- 9	- 5	- 6	- 8

Аутори: О. Тодоровић и С. Огњановић

РАДНИ ЛИСТИЋ	
ПРВИ РАЗРЕД	ОДУЗИМАЊЕ 14 - 10 и 14 - 12
Име и презиме	

1. Израчунај.

17 - 10 = ...	15 - 10 = ...	14 - 10 = ...
16 - 10 = ...	11 - 10 = ...	12 - 10 = ...
18 - 10 = ...	13 - 10 = ...	19 - 10 = ...
17 - 11 = ...	15 - 13 = ...	14 - 12 = ...
19 - 16 = ...	11 - 11 = ...	18 - 15 = ...
13 - 12 = ...	14 - 13 = ...	19 - 17 = ...

2. Упиши бројеве који недостају.

17 - _ = 7	_ - 3 = 10	14 - _ = 4
11 - _ = 0	14 - _ = 3	16 - _ = 1
_ - 17 = 2	_ - 15 = 3	18 - _ = 5
15 - _ = 1	11 - _ = 1	14 - _ = 2

3. Израчунај.

11	16	14	12	18	13	12	18
-10	- 10	- 10	- 11	- 16	- 10	- 10	- 13

16	13	15	17	16	11	14	19
-15	- 11	- 12	- 16	- 13	- 11	- 13	- 18

4. Од збира бројева 9 и 5 одузми број 10. Колика је разлика?

Једнакост _____

Одговор: _____

5. Матија има 8 сличица. Павле има 6 сличица више од Матије. Лука има 12 сличица мање од Павла. Колико сличица има Лука?

Матија Павле Лука

_____ _____ _____

Одговор: _____

Аутори: О. Тодоровић и С. Огњановић

РАДНИ ЛИСТИЋ	
ПРВИ РАЗРЕД	САБИРАЊЕ И ОДУЗИМАЊЕ ДО 20
Име и презиме	

1. Израчунај.

5 + 4 = ...	8 + 2 = ...	7 + 3 = ...	6 + 1 = ...
5 + 10 = ...	10 + 2 = ...	7 + 10 = ...	6 + 10 = ...
13 + 4 = ...	5 + 12 = ...	3 + 13 = ...	16 + 1 = ...
13 + 7 = ...	8 + 12 = ...	5 + 15 = ...	10 + 10 = ...
8 + 4 = ...	7 + 6 = ...	9 + 3 = ...	5 + 6 = ...

5 - 4 = ...	8 - 2 = ...	7 - 3 = ...	6 - 1 = ...
15 - 10 = ...	16 - 2 = ...	18 - 10 = ...	16 - 6 = ...
19 - 8 = ...	16 - 7 = ...	18 - 10 = ...	16 - 8 = ...
15 - 7 = ...	18 - 9 = ...	17 - 8 = ...	10 - 1 = ...
11 - 3 = ...	13 - 5 = ...	12 - 8 = ...	14 - 4 = ...

2. Израчунај.

10	13	12	11	19	13	12	16
+ 2	+ 1	+ 7	+ 4	+ 0	+ 5	+ 6	+ 3

ЗАВОД ЗА УЏБЕНИКЕ

Аутори: О. Тодоровић и С. Огњановић

6	10	10	3	12	14	11	10
+11	+ 9	+ 8	+ 14	+ 2	+ 3	+ 6	+ 4
13	16	15	11	14	17	12	18
- 7	- 8	- 6	- 1	- 7	- 9	- 3	- 8
10	13	11	19	17	18	19	16
- 0	- 4	- 1	- 9	- 8	- 9	- 9	- 7

3. Упиши бројеве који недостају.

7 + _ = 12	_ + 3 = 11	19 - _ = 9
16 - _ = 10	4 + _ = 12	18 - _ = 9
_ + 10 = 20	_ + 5 = 13	11 - _ = 6
16 - _ = 9	10 + _ = 14	10 + _ = 17

Аутори: О. Тодоровић и С. Огњановић

РАДНИ ЛИСТИЋ	
ПРВИ РАЗРЕД	ПАРНИ И НЕПАРНИ БРОЈЕВИ
Име и презиме	

1. Преброј елементе скупа. Заокружи тачан одговор.

	ПАРАН **НЕПАРАН**
	ПАРАН **НЕПАРАН**
	ПАРАН **НЕПАРАН**
	ПАРАН **НЕПАРАН**
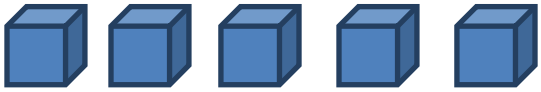	**ПАРАН** **НЕПАРАН**

2. Заокружи све парне бројеве: 1, 2, 3, 5, 8, 11, 13, 14, 17, 18, 19, 20.

3. Заокружи све непарне бројеве: 1, 3, 4, 5, 6, 8, 9, 10, 15, 16, 19, 20.

4. Попуни табелу:

	Највећи паран број	Најмањи паран број	Највећи непаран број	Најмањи непаран број
Прва десетица				
Друга десетица				

Аутори: О. Тодоровић и С. Огњановић

РАДНИ ЛИСТИЋ	
ПРВИ РАЗРЕД	ДЕСЕТИЦЕ ПРВЕ СТОТИНЕ
Име и презиме	

1. Повежи бројеве почевши од 0.

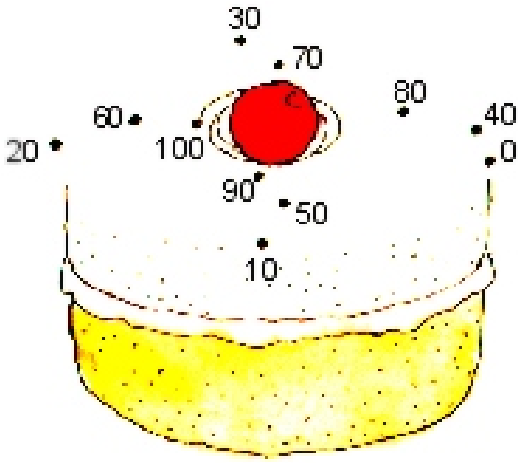

2. Упиши пропуштене бројеве.

10, 20, ___, 40, 50, ___, ___, ___, ___, 100

3. Настави као што је започето.

10	**ДЕСЕТ**		ОСАМДЕСЕТ
40			ШЕЗДЕСЕТ
70			ТРИДЕСЕТ
90		20	
	ПЕДЕСЕТ	100	

Аутори: О. Тодоровић и С. Огњановић

РАДНИ ЛИСТИЋ	
ПРВИ РАЗРЕД	УПОРЕЂИВАЊЕ ДЕСЕТИЦА
Име и презиме	

1. Упиши дестице које недостају.

10	100	90
60	20	
70	80	30
	40	

90	20	10
40	50	
100		70
30	80	

70	30	50
20	60	
10		80
40	100	

2. Упиши знак <, > или =.

3	<	4
9		8
6		1
1		2
4		3
5		5

30	<	40
90		80
60		10
10		20
40		30
50		50

5		3
7		8
9		7
6		8
9		9
9		10

50		30
70		80
90		70
60		80
90		90
90		100

3. Напиши све десетице прве стотине веће од 20, а мање од 70.

_____

4. Напиши редом све десетице прве стотине почевши од највеће до најмање.

_____

Аутори: О.Тодоровић и С. Огњановић

РАДНИ ЛИСТИЋ	
ПРВИ РАЗРЕД	Сабирање и одузимање
Име и презиме	

1. Израчунај.

50 + 40 = ...
70 - 20 = ...
90 - 70 = ...
30 + 70 = ...

60 + 30 = ...
70 - 70 = ...
80 + 20 = ...
90 - 30 = ...

30 + 20 = ...
70 - 60 = ...
90 - 10 = ...
80 - 40 = ...

50 - 50 = ...
90 - 50 = ...
40 + 50 = ...
10 + 50 = ...

70 - 40 = ...
20 + 60 = ...
90 - 50 = ...
60 + 40 = ...

100 - 90 = ...
30 + 60 = ...
80 - 10 = ...
40 + 40 = ...

90 - 40 = ...
20 + 20 = ...
60 - 50 = ...
50 + 50 = ...

100 - 50 = ...
30 + 30 = ...
80 - 70 = ...
10 + 10 = ...

2. Упиши одговарајући број.

30 + 70 = 100	50 + ... = 100
20 + ... = 100	80 + ... = 100
40 + ... = 100	60 + ... = 100
70 + ... = 100	10 + ... = 100

..... + 10 = 100	30 + ... = 100
..... + 20 = 100	..... + 60 = 100
..... + 60 = 100	20 + ... = 100
..... + 70 = 100	..... + 70 = 100

..... - 40 = 10	40 - ..... = 20
..... - 50 = 40	..... - 80 = 10
..... - 80 = 10	70 - ..... = 20
..... - 30 = 70	..... - 10 = 40

..... - 60 = 40	90 - ..... = 50
..... - 50 = 50	..... - 30 = 40
..... - 30 = 30	60 - ..... = 20
..... - 50 = 20	..... - 40 = 40

Аутори: О. Тодоровић и С. Огњановић

РАДНИ ЛИСТИЋ	
ПРВИ РАЗРЕД	Писање и читање бројева до 100
Име и презиме	

1. Упиши бројеве који недостају.

1	2	3	4			7	8	9	10
11	12		14	15	16			19	
21				25	26	27	28		30
31	32	33	34	35	36	37		39	40
41	42	43	44			47	48	49	
	52	53		55	56	57	58	59	
61		63	64	65	66		68	69	70
71	72		74	75	76	77	78		80
	82		84		86	87	88	89	
91		93		95	96		98	99	100

2. Дате бројеве прочитај и запиши речима.

41 _____ 34 _____

52 _____ 76 _____

29 _____ 88 _____

90 _____ 65 _____

3. Напиши цифрама следеће бројеве:

тридесет пет _____ деведест шест _____ четрдесет _____

двадесет два _____ тридесет осам _____ осамдесет један _____

4. Број 66 садржи ____ десетица и ____ јединица.

Број 70 садржи ____ десетица и ____ јединица.

Број 94 садржи ____ десетица и ____ јединице.

Број 38 садржи ____ десетице и ____ јединица.

Број 17 садржи ____ десетицу и ____ јединица.

Број 9 садржи ____ десетица и ____ јединица.

5. У броју 64 цифра 6 се налази на месту _____.

   У броју 46 цифра 6 се налази на месту _____.

   У броју 60 цифра 6 се налази на месту _____.

   У броју 16 цифра 6 се налази на месту _____.

6. Напиши све двоцифрене бројеве који на месту јединица имају цифру 7.

   _____

7. Напиши све двоцифрене бројеве који на месту десетица имају цифру 3.

   _____

8. Пронађи и заокружи све двоцифрене бројеве чији је збир цифара 5.

0	1	2	3	4	5	6	7	8	9
10	11	12	13	14	15	16	17	18	19
20	21	22	23	24	25	26	27	28	29
30	31	32	33	34	35	36	37	38	39
40	41	42	43	44	45	46	47	48	49
50	51	52	53	54	55	56	57	58	59
60	61	62	63	64	65	66	67	68	69
70	71	72	73	74	75	76	77	78	79
80	81	82	83	84	85	86	87	88	89
90	91	92	93	94	95	96	97	98	99

9. Пронађи и заокружи све двоцифрене бројеве чија је цифра десетица за један већа од цифре јединица.

0	1	2	3	4	5	6	7	8	9
10	11	12	13	14	15	16	17	18	19
20	21	22	23	24	25	26	27	28	29
30	31	32	33	34	35	36	37	38	39
40	41	42	43	44	45	46	47	48	49
50	51	52	53	54	55	56	57	58	59
60	61	62	63	64	65	66	67	68	69
70	71	72	73	74	75	76	77	78	79
80	81	82	83	84	85	86	87	88	89
90	91	92	93	94	95	96	97	98	99

Аутори: О. Тодоровић и С. Огњановић

РАДНИ ЛИСТИЋ	
ПРВИ РАЗРЕД	Бројање унапред, уназад и са прескоком
Име и презиме	

1. Повежи бројеве почевши од броја 10 до 100.



2. Повежи бројеве почевши од броја 5 до 100.



3. Повежи бројеве почевши од броја 2 до 100.



4. Упиши бројеве који недостају.

23				19				15	
	22								
		32							
					29				25
				62					
			61			65			
				95		97			

Аутори: О. Тодоровић и С. Огњановић

РАДНИ ЛИСТИЋ	
ПРВИ РАЗРЕД	УПОРЕЂИВАЊЕ БРОЈЕВА до 100
Име и презиме	

1. Упореди бројеве.

20	=	20
31		20
32		47
22		20
65		64

36		78
66		29
13		31
71	<	74
80		79

36		63
94		94
74	>	73
14		12
14		11

15		51
83		85
21		12
91		95
52		54

2. Поређај бројеве редом од најмањег до највећег:

14, 71, 17, 84, 34, 18, 19, 98, 90, 27

_____

Поређај бројеве редом од највећег до најмањег:

24, 33, 13, 42, 34, 28, 39, 93, 97, 79

_____

3. Црвеном бојом заокужи бројеве веће од 38, а мање од 56. Плавом бојом заокружи бројеве мање од 95, а веће од 84.

0	1	2	3	4	5	6	7	8	9
10	11	12	13	14	15	16	17	18	19
20	21	22	23	24	25	26	27	28	29
30	31	32	33	34	35	36	37	38	39
40	41	42	43	44	45	46	47	48	49
50	51	52	53	54	55	56	57	58	59
60	61	62	63	64	65	66	67	68	69
70	71	72	73	74	75	76	77	78	79
80	81	82	83	84	85	86	87	88	89
90	91	92	93	94	95	96	97	98	99

Напиши десетицу која се налази између датих бројева.

59	**60**	64
49		51
69		72

37		41
72		82
65		73

50		30
40		20
90		70

82		78
65		55
99		81

Аутори: О. Тодоровић и С. Огњановић

РАДНИ ЛИСТИЋ	
ПРВИ РАЗРЕД	САБИРАЊЕ 40 + 3
Име и презиме	

1. Попуни таблице.

	+ 6
10	
30	
50	
20	

	+ 7
40	
80	
60	
70	

	+ 8
90	
40	
30	
50	

	+ 9
80	
20	
70	
60	

	+ 4
10	
50	
60	
20	

2. Попуни табелу.

a	7 + *a*	8 + *a*	5 + *a*
30			
70			
60			
80			
50			

Аутори: О. Тодоровић и С. Огњановић

РАДНИ ЛИСТИЋ	
ПРВИ РАЗРЕД	ОДУЗИМАЊЕ 43 - 3
Име и презиме	

1. Попуни таблице.

	- 5
15	
35	
55	
25	

	- 2
42	
82	
62	
72	

	- 8
98	
48	
38	
58	

	- 9
87	
27	
77	
67	

	- 4
14	
54	
64	
94	

2. Израчунај и разлици напиши одговарајући збир.

45 - 5 = 40	**40 + 5 =45**
39 - 9 =	
81 - 1 =	
96 - 6 =	
34 - 4 =	
77 - 7 =	

3. Израчунај.

68	73	99	86	35	41	27	52
- 8	- 3	- 9	- 6	- 5	- 1	- 7	- 2

Аутори: О. Тодоровић и С. Огњановић

РАДНИ ЛИСТИЋ	
ПРВИ РАЗРЕД	САБИРАЊЕ 46 + 3
Име и презиме	

1. Попуни таблице.

	+ 6
42	
31	
50	
23	

	+ 3
42	
86	
65	
74	

	+ 5
91	
44	
32	
53	

	+ 4
82	
24	
73	
65	

	+ 2
77	
56	
64	
25	

2. Попуни табелу.

a	$3 + a$	$4 + a$	$2 + a$
32			
74			
63			
85			
51			

3. Израчунај.

57	88	31	54	99	53	72	96
+ 2	+ 1	+ 7	+ 4	+ 0	+ 5	+ 6	+ 3
6	16	81	3	45	63	71	85
+ 32	+ 3	+ 8	+ 76	+ 2	+ 3	+ 6	+ 4

4. Израчунај.

(40 + 50) + 9 = ...

(60 + 3) + 6 = ...

(20 + 60) + 7 = ...

(10 + 1) + 9 = ...

(2 + 40) + 6 = ...

(1 + 4) + 50 = ...

(30 + 2) + 7 = ...

90 + (7 + 3) = ...

Аутори: О. Тодоровић и С. Огњановић

РАДНИ ЛИСТИЋ	
ПРВИ РАЗРЕД	ОДУЗИМАЊЕ 49 - 3
Име и презиме	

1. Попуни таблице.

	- 6
48	
39	
56	
27	

	- 3
45	
86	
65	
74	

	- 5
99	
46	
38	
57	

	- 4
88	
24	
75	
69	

	- 2
77	
56	
64	
25	

2. Попуни табелу.

a	*a - 3*	*a - 4*	*a - 1*
36			
79			
68			
84			
57			

3. Израчунај.

57	88	31	54	91	57	79	96
- 2	- 1	- 7	- 4	- 0	- 5	- 6	- 3

4. Израчунај и разлици напиши одговарајући збир.

48 - 5 = 43	**43 + 5 = 48**
39 - 2 =	
86 - 5 =	
96 - 3 =	
34 - 1 =	
77 - 4 =	

5. Израчунај.

(27 - 4) - 2 = ...

(88 - 5) - 1 = ...

(56 - 3) - 2 = ...

(49 - 4) - 3 = ...

Аутори: О. Тодоровић и С. Огњановић

РАДНИ ЛИСТИЋ	
ПРВИ РАЗРЕД	САБИРАЊЕ 48 + 2
Име и презиме	

1. Попуни таблице.

	+ 6
44	
34	
54	
24	

	+ 3
47	
87	
67	
77	

	+ 5
95	
45	
35	
55	

	+ 4
86	
26	
76	
66	

	+ 2
78	
58	
68	
28	

2. Израчунај.

57	88	31	54	79	53	75	46
+ 3	+ 2	+ 9	+ 6	+ 1	+ 7	+ 5	+4

3. Израчунај.

(40 + 5) + 5 = ...

(62 + 4) + 4 = ...

(20 + 6) + 4 = ...

(60 + 1) + 9 = ...

(3 + 40) + 7 = ...

(1 + 4) + 55 = ...

(30 + 2) + 8 = ...

92 + (3 + 5) = ...

ЗАВОД ЗА УЏБЕНИКЕ

Аутори: О. Тодоровић и С. Огњановић

РАДНИ ЛИСТИЋ	
ПРВИ РАЗРЕД	ОДУЗИМАЊЕ 60 - 2
Име и презиме	

1. Попуни таблице.

	- 5
20	
30	
50	
70	

	- 2
40	
80	
60	
70	

	- 8
90	
50	
30	
40	

	- 9
80	
20	
70	
60	

	- 4
40	
30	
60	
90	

2. Израчунај и разлици напиши одговарајући збир.

40 - 4 = 36	**36 + 4 = 40**
90 - 9 =	
80 - 1 =	
60 - 6 =	
30 - 4 =	
70 - 7 =	

3. Попуни табелу.

Бројеви	**Збир**	**Разлика**
40 и 6	**40 + 6 = 46**	**40 - 6 = 34**
30 и 8		
90 и 5		
70 и 1		

Аутори: О. Тодоровић и С. Огњановић

РАДНИ ЛИСТИЋ	
ПРВИ РАЗРЕД	САБИРАЊЕ 56 + 23
Име и презиме	

1. Израчунај.

57	88	31	54	35	53	72	66
+ 22	+ 11	+ 47	+ 24	+ 24	+ 45	+ 16	+ 33
26	16	81	23	45	63	71	85
+ 32	+ 33	+ 18	+ 76	+ 42	+ 13	+ 26	+ 14

2. Израчунај.

27 + 12 = ...	33 + 43 = ...	14 + 15 = ...
55 + 24 = ...	41 + 58 = ...	34 + 51 = ...
31 + 18 = ...	52 + 15 = ...	18 + 81 = ...
27 + 22 = ...	66 + 32 = ...	44 + 55 = ...
72 + 16 = ...	27 + 22 = ...	22 + 72 = ...
45 + 14= ...	34 + 64 = ...	18 + 11 = ...

ЗАВОД ЗА УЏБЕНИКЕ

Аутори: О. Тодоровић и С. Огњановић

РАДНИ ЛИСТИЋ	
ПРВИ РАЗРЕД	ОДУЗИМАЊЕ 79 - 23
Име и презиме	

1. Израчунај.

57	88	37	55	35	58	79	66
- 22	- 11	- 27	- 24	- 34	- 45	- 16	- 33
96	86	88	99	45	33	77	85
- 32	- 33	- 18	- 76	- 42	-12	- 26	- 74

2. Израчунај.

27 - 12 = ...	73 - 43 = ...	64 - 12 = ...
55 - 24 = ...	88 - 55 = ...	54 - 51 = ...
39 - 18 = ...	56 - 15 = ...	98 - 81 = ...
27 - 22 = ...	66 - 32 = ...	76 - 55 = ...
77 - 56 = ...	27 - 22 = ...	82 - 72 = ...
45 - 14= ...	34 - 14 = ...	98 - 71 = ...

ЗАВОД ЗА УЏБЕНИКЕ

Аутори: О. Тодоровић и С. Огњановић

РАДНИ ЛИСТИЋ	
ПРВИ РАЗРЕД	МЕРЕЊЕ
Име и презиме	

1. Поред сваке бојице напиши одговарајући мерни број.



1	2	3	4	5	6	7	8

Аутори: О. Тодоровић и С. Огњановић

РАДНИ ЛИСТИЋ	
ПРВИ РАЗРЕД	МЕРЕЊЕ ДУЖИ
Име и презиме	

1. Поред сваке бојице напиши одговарајући мерни број.



1	2	3	4	5	6	7	8

Аутори: О. Тодоровић и С. Огњановић

РАДНИ ЛИСТИЋ	
ПРВИ РАЗРЕД	ДИНАРИ И ПАРЕ
Име и презиме	

1. Којим све новчићима касирка Ковиљка може да врати назначени кусур? Попуни табелу као што је показано.

	НОВЧИЋИ			
Кусур	**1 динар**	**2 динара**	**5 динара**	**10 динара**
2 динара	**2**			
2 динара		**1**		
3 динара	**3**			
3 динара	**1**	**1**		
4 динара				
4 динара				
4 динара				
5 динара				
5 динара				
5 динара				
5 динара				
6 динара	**6**			
6 динара				
6 динара				
6 динара				
6 динара				
10 динара				
10 динара				
10 динара				
10 динара				
10 динара				
10 динара				
10 динара				
10 динара				
10 динара				