1. НЕДЕЉА • 1. ДАН

Задатак за данас

Патке су на језеру.

Неке су на обали језера.

Неке су у води.

Преброј колико их има укупно.



Укупно је _____ патака.

1. НЕДЕЉА • 2. ДАН

Задатак за данас

На ливади су се играла 3 пачета.

Придружила су им се још 2 пачета.

Преброј колико пачића се сада игра.



Сада се игра _____ пачића.

1. НЕДЕЉА • 3. ДАН

Задатак за данас

Патка Гага је снела 6 јаја.

Патка Маја је снела 9 јаја.

Која патка је снела више јаја?

○ Патка Гага

○ Патка Маја

1. НЕДЕЉА • 4. ДАН

Задатак за данас

Ових 5 патака поређале су се по одређеном правилу.

Шта ради последња патка у реду?



○ Седи ○ Стоји

Задатак за данас

Погледај табелу, па одговори на питања.

Колико има патака?

Велике	
Мале	

Колико је великих патака? _____

Колико је малих патака? _____

Којих има више? ○ ○

Занимљивости о паткама

- Патка може да снесе и до 12 јаја у једном леглу.
- Пачићи могу да пливају већ два дана после рођења.